В. П. Гриханов Т. В. Лисовская

МАТЕМАТИКА

От 1 до 10

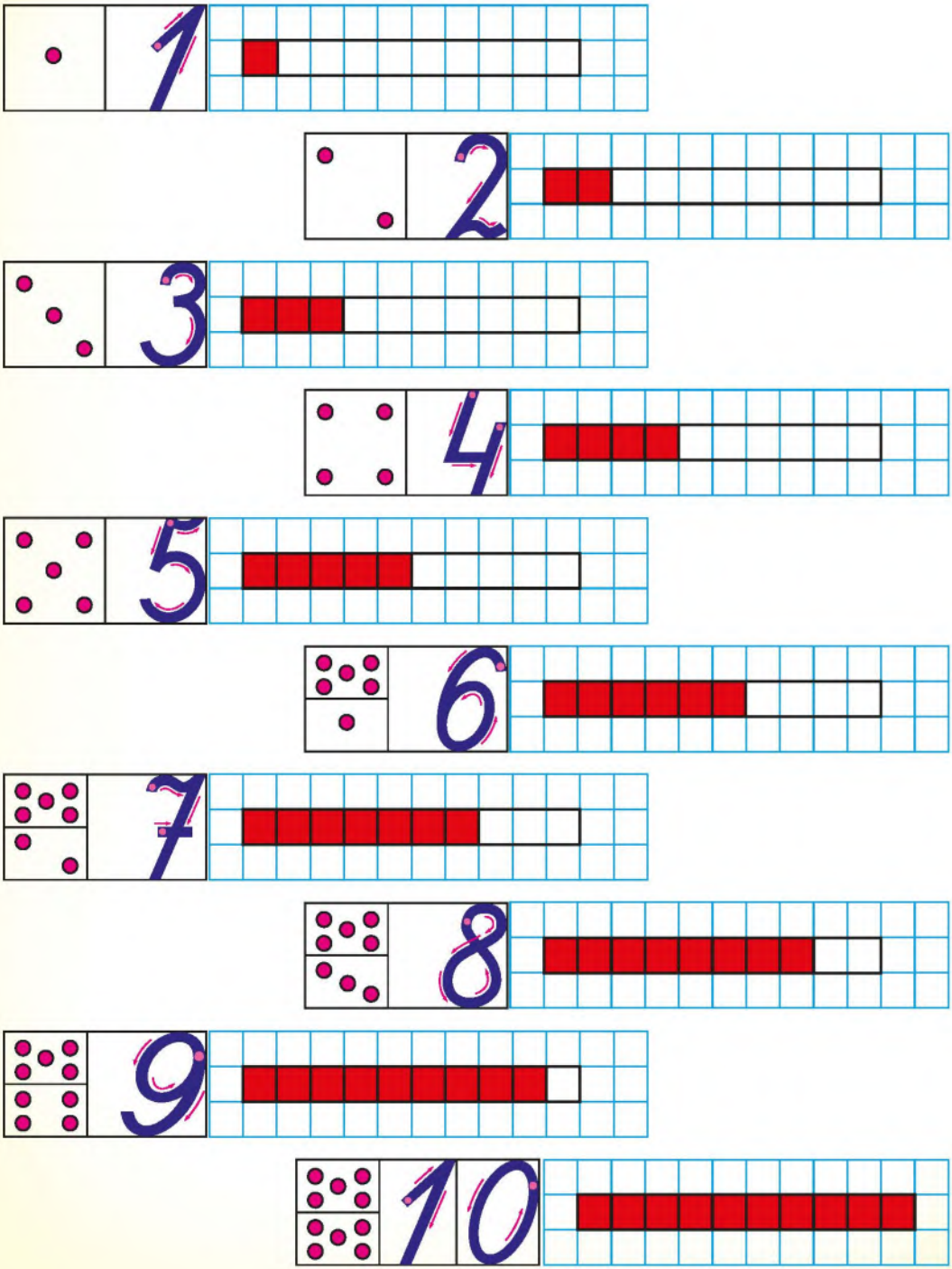

Форма и размер



Больше — меньше

Сравнение

Яблок на 2 больше

Груш на 2 меньше

Считаем от 1 до 10

0 – 1 – 2 – 3 – 4 – 5 – 6 – 7 – 8 – 9

3	
1	2
2	1

4	
1	3
2	2
3	1

5	
1	4
2	3
3	2
4	1

6	
1	5
2	4
3	3
4	2
5	1

7	
1	6
2	5
3	4
4	3
5	2
6	1

8	
1	7
2	6
3	5
4	4
5	3
6	2
7	1

9	
1	8
2	7
3	6
4	5
5	4
6	3
7	2
8	1

1 + 2 + 3 + 4 = 10

В порядке увеличения

В порядке уменьшения

В. П. Гриханов
Т. В. Лисовская

МАТЕМАТИКА

Учебное пособие для **2** класса
первого отделения специальных школ,
специальных школ-интернатов
с русским языком обучения и воспитания

Для работы в классе

4-е издание, исправленное

Допущено
Министерством образования
Республики Беларусь

Минск «Народная асвета» 2023

Правообладатель Народная асвета

УДК 51(075.2=161)-056.36
ББК 22.1я721
Г85

Рецензент

учебно-методическое объединение учителей 1–5 классов (первое отделение) государственного учреждения образования «Специальная школа № 11 г. Минска» (учитель первой квалификационной категории *Л. А. Мистюкевич*)

Гриханов, В. П.

Г85 Математика : учебное пособие для 2-го класса первого отделения специальных школ, специальных школ-интернатов с русским языком обучения и воспитания : для работы в классе / В. П. Гриханов, Т. В. Лисовская. — 4-е издание, исправленное. — Минск : Народная асвета, 2023. — 168 с. : ил.

ISBN 978-985-03-3971-3.

Учебное пособие по математике предназначено для организации учебного процесса во втором классе специальных школ, специальных школ-интернатов для учащихся с интеллектуальной недостаточностью.

УДК 51(075.2=161)-056.36
ББК 22.1я721

ISBN 978-985-03-3971-3

© Гриханов В. П., 1996
© Гриханов В. П., Лисовская Т. В., с изменениями, 2023
© Оформление. УП «Народная асвета», 2023

Правообладатель Народная асвета

СОДЕРЖАНИЕ

Первая четверть

Уроки 1–34 4

Счёт в пределах 10. Порядковый счёт. Называние числа. Решение наглядных задач. Ориентировка в пространстве и во времени. Сравнение предметов по массе. Геометрические фигуры.

Вторая четверть

Уроки 1–30 40

Образование чисел 2–5. Состав числа в пределах 5. Сложение и вычитание в пределах 5. Решение наглядных задач и задач-поручений. Точка. Прямая и кривая линии. Образование чисел 6–9. Число 10. Больше, меньше, поровну. Число и цифра 0. Таблица сложения и вычитания в пределах 5. Представления о времени.

Третья четверть

Уроки 1–40 86

Арифметические задачи. Прямая и кривая линии. Нумерация чисел в пределах 10. Сложение и вычитание. Решение и оформление арифметических задач. Ориентировка в пространстве и во времени. Построение линий.

Четвёртая четверть

Уроки 1–32 131

Построение геометрических фигур. Способы образования чисел первого десятка. Сложение и вычитание в пределах 10. Таблица сложения и вычитания в пределах 10. Задачи на нахождение суммы и остатка. Построение прямых линий.

Правообладатель Народная асвета

ПЕРВАЯ ЧЕТВЕРТЬ

Урок 1

1.

2.

3.



Правообладатель Народная асвета

1.

2.

3.

Правообладатель Народная асвета

1.

2.



3.



Правообладатель Народная асвета

1.

2.



3.

Правообладатель Народная асвета

Урок 5

1.

2.

3.



Правообладатель Народная асвета

1.

2.

Правообладатель Народная асвета

1.



2.

Правообладатель Народная асвета

1.

2.

Правообладатель Народная асвета

1.

2.

3.



Правообладатель Народная асвета

1.

2.

Правообладатель Народная асвета

1.

2.

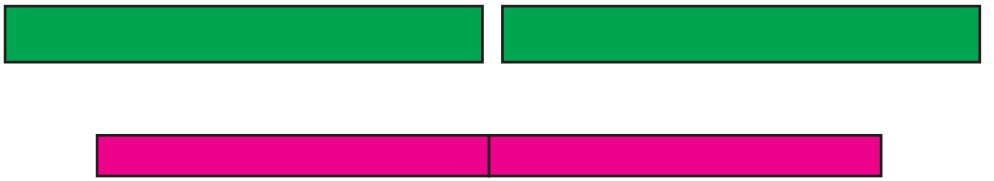

3.



4.

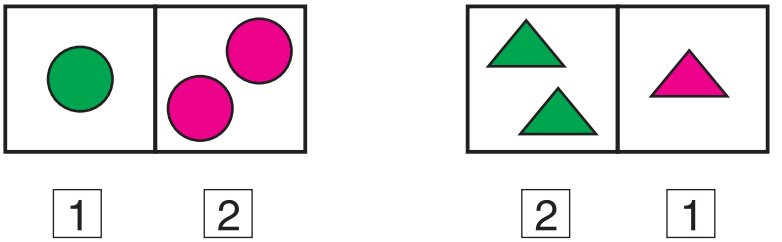

Правообладатель Народная асвета

1.

2.

3.

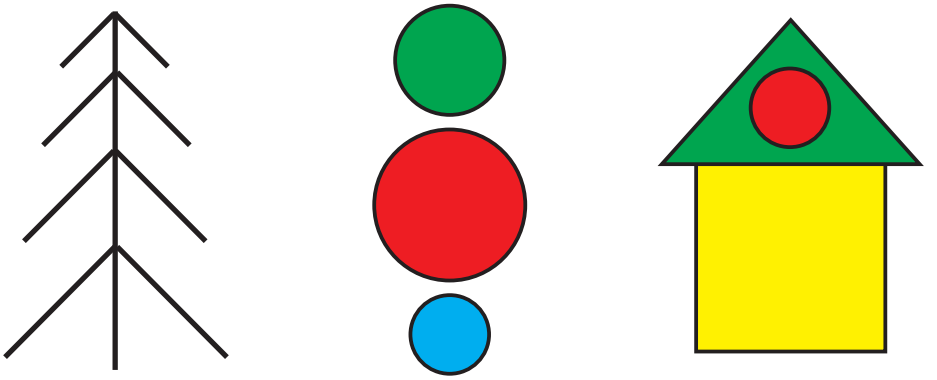

Правообладатель Народная асвета

1.

2.



3.



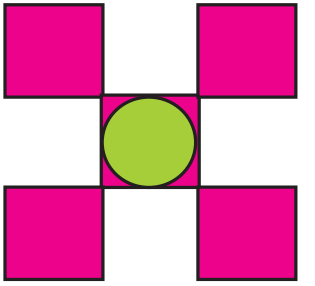

Правообладатель Народная асвета

4.

1 + 3 =	4 – 3 =	3 – 3 =
2 + 3 =	5 – 3 =	2 – 2 =
1 + 4 =	4 – 4 =	5 – 4 =

5.

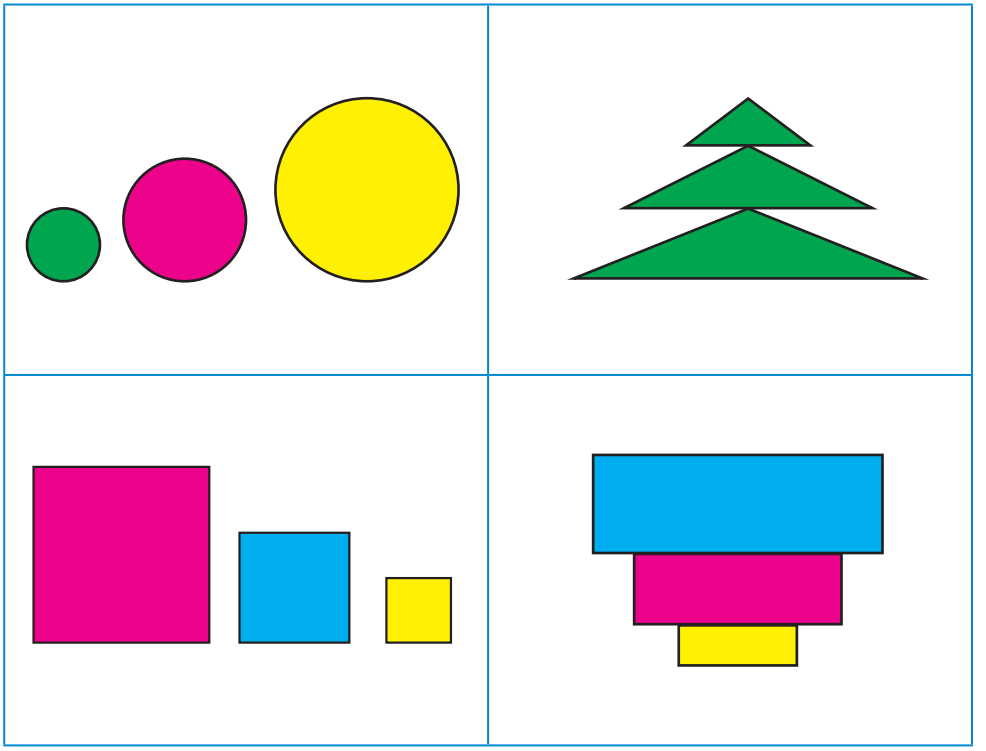

6.

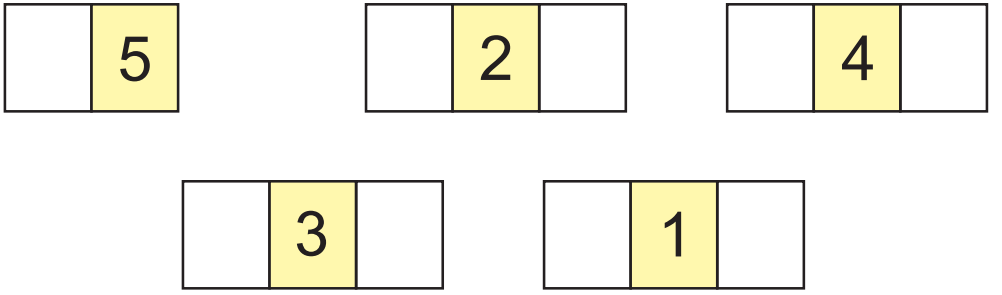

Правообладатель Народная асвета

1.



2.

3.



Правообладатель Народная асвета

1.



2.

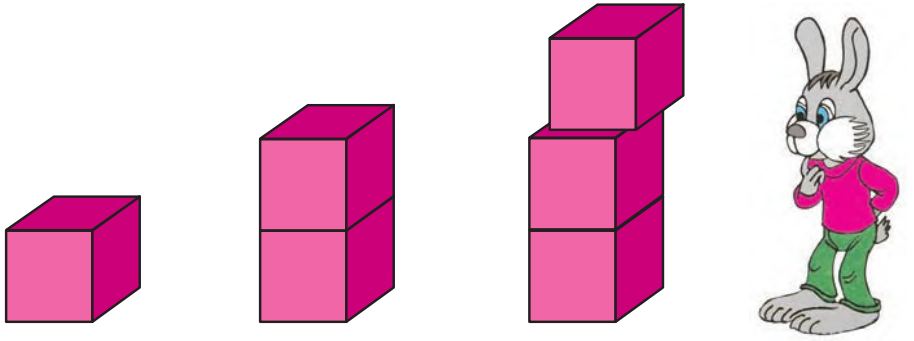

3.

1 + 1 + 1
2 + 1

1 + 1
1 + 2

3 – 1
3 – 2

Правообладатель Народная асвета

1.

☐ = ☐

2.

☐ ☐ ☐

3.

☐ ☐

Правообладатель Народная асвета

1.

2.

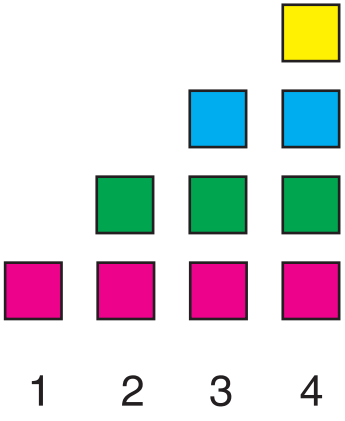

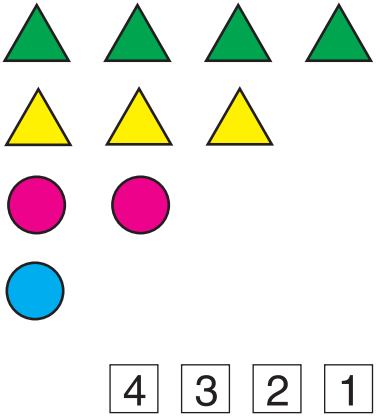

3.

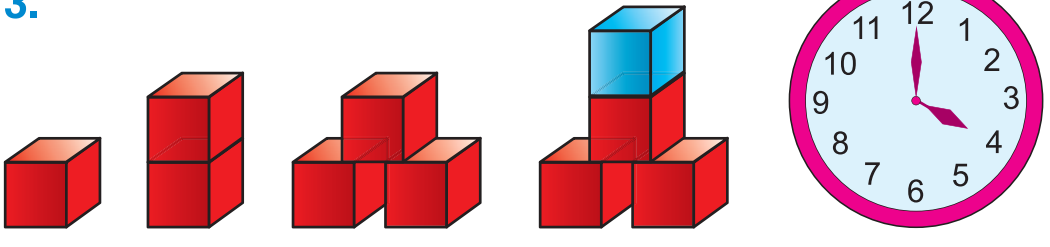

Правообладатель Народная асвета

1.

2.

3.

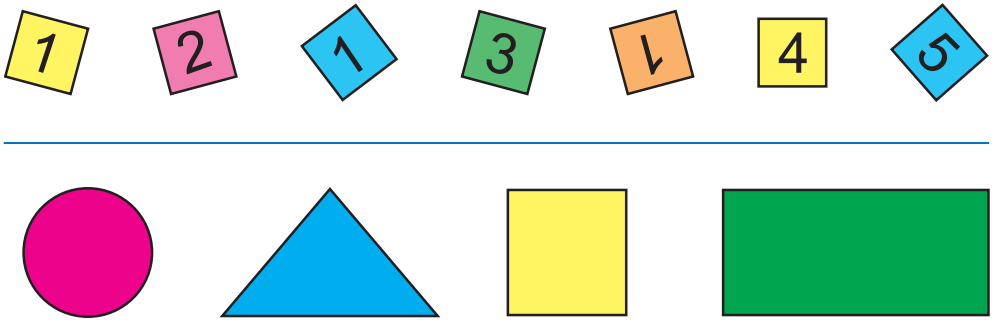

Правообладатель Народная асвета

1.

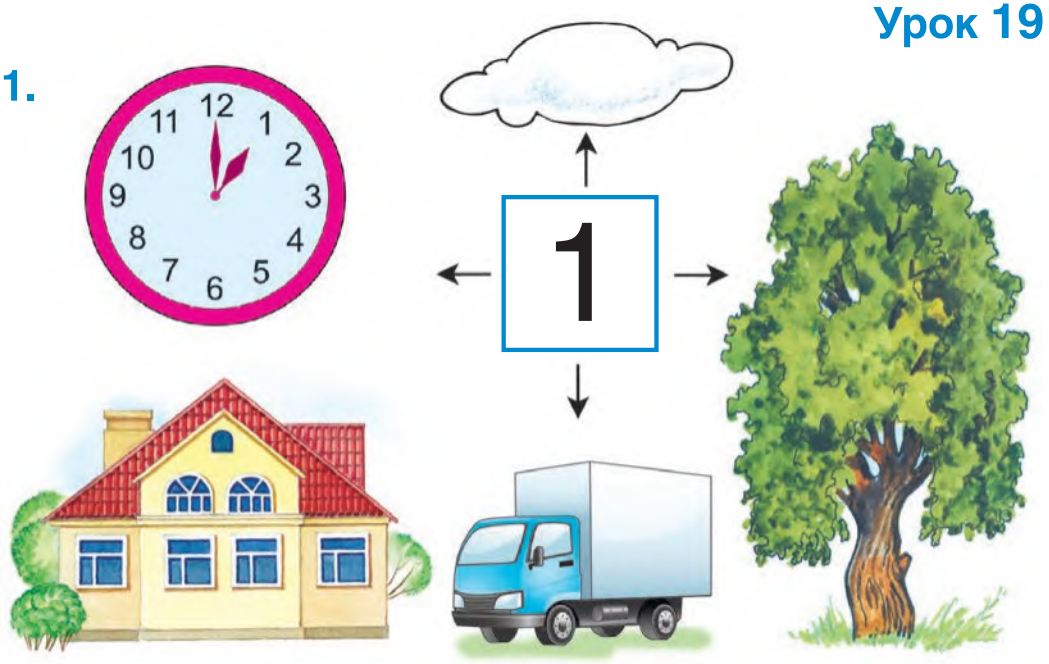

2.



3.

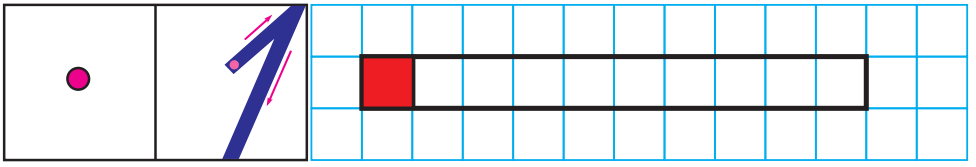

Правообладатель Народная асвета

1.



2.



3.

Правообладатель Народная асвета

1. 1 2 3 4 5

2.

3.

4.

5.

Правообладатель Народная асвета

1.

1 + 1 = ☐

2 − 1 = ☐

1 + 1 + 1 = ☐

2.

☐ + ☐ = ☐

2 − 1 = ☐

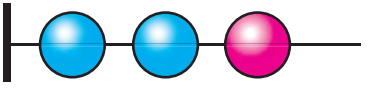

☐ + ☐ = ☐

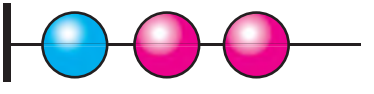

☐ + ☐ = ☐

3.

1 + 1 = 2 − 1 =

2 + 1 = 3 − 1 =

Правообладатель Народная асвета

1.



□ + □ = □

□ – □ = □

2.





3 + □ = 4

□ + 2 = 4

3.

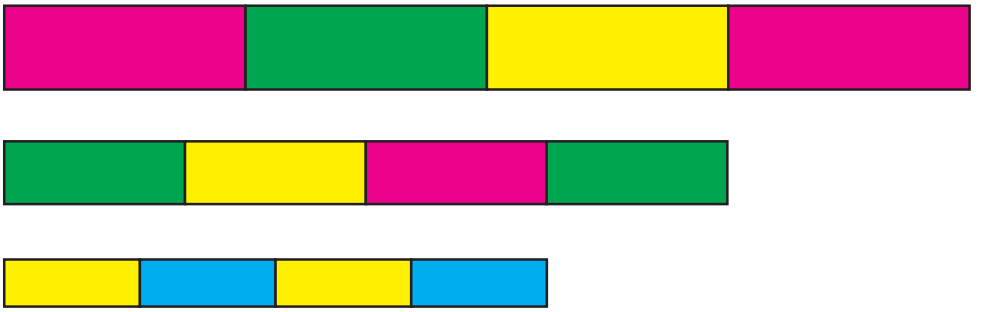

4.

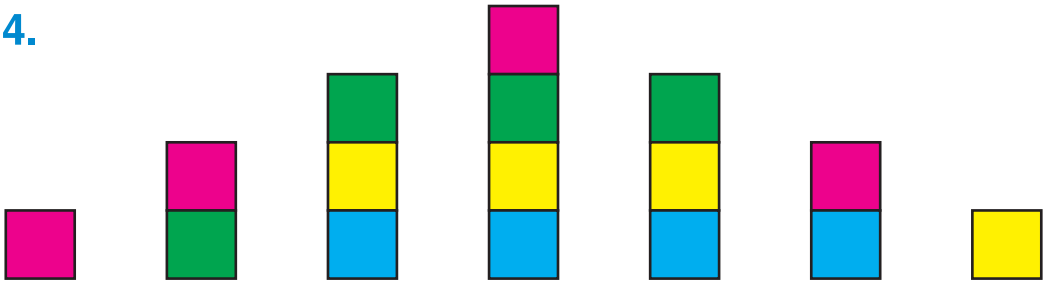

Правообладатель Народная асвета

1.

□ + □ + □ = 5

□ + □ + □ = □

2.



3 + □ = 5

□ + 3 = 5

3.

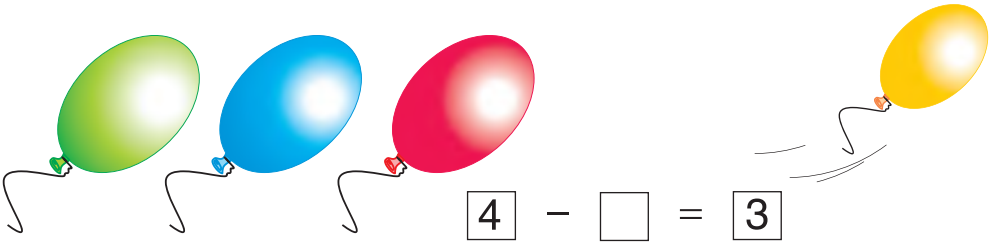

4 − □ = 3

Правообладатель Народная асвета

1.

1	2	☐
1	☐	3
☐	2	3

3	☐	1
☐	2	1
3	2	☐

1	☐	☐
☐	2	☐
☐	☐	3

2.



3.

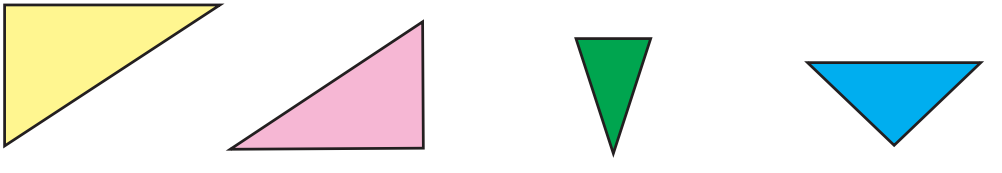

4.

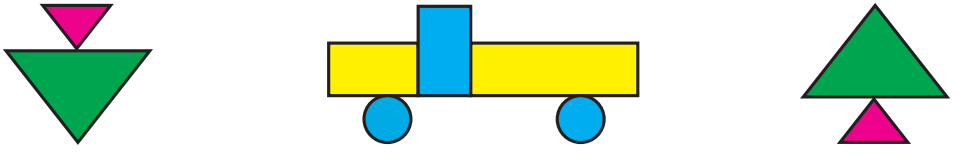

Правообладатель Народная асвета

1.

Правообладатель Народная асвета

2.

3.

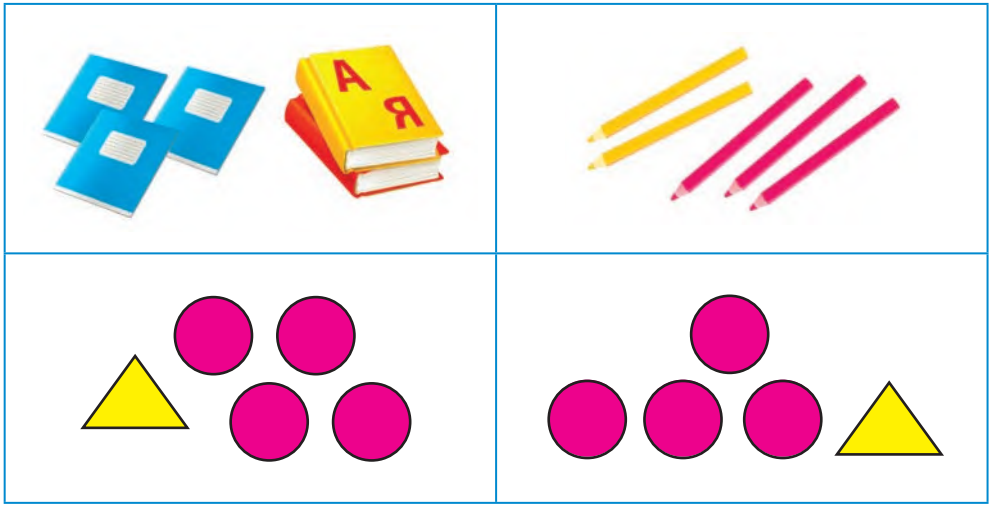

4.

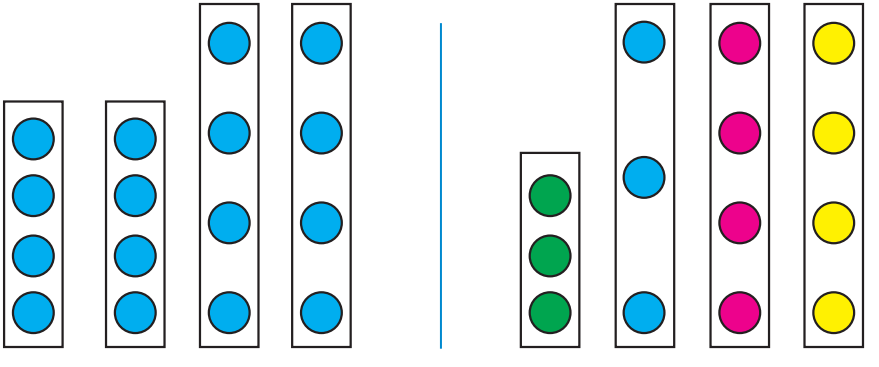

Правообладатель Народная асвета

1.

2.



3.

Правообладатель Народная асвета

1.

2.

3.

4.

Правообладатель Народная асвета

1.

2.

Правообладатель Народная асвета

1.



2.

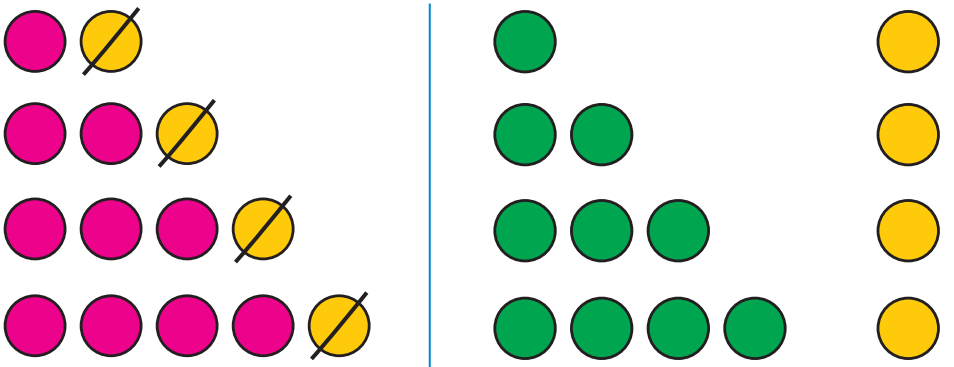

3.

2 + 1 + 1 + 1 =
5 – 1 – 1 – 1 =
2 + 1 + 1 =

4 – 1 – 1 =
2 – 1 =
3 – 1 – 1 =

4.

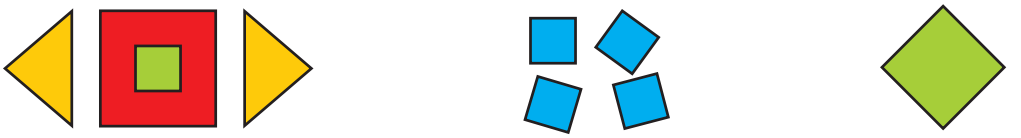

Правообладатель Народная асвета

1.

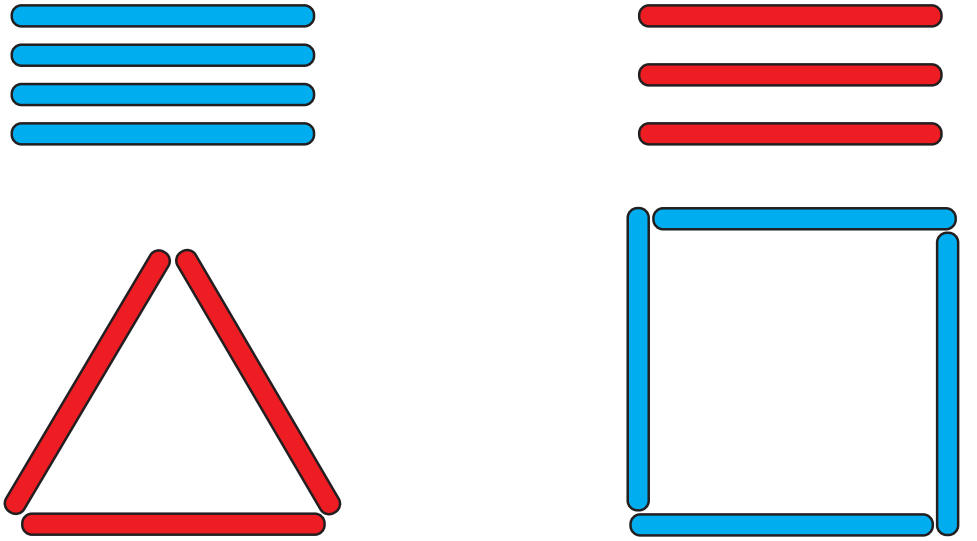

2.

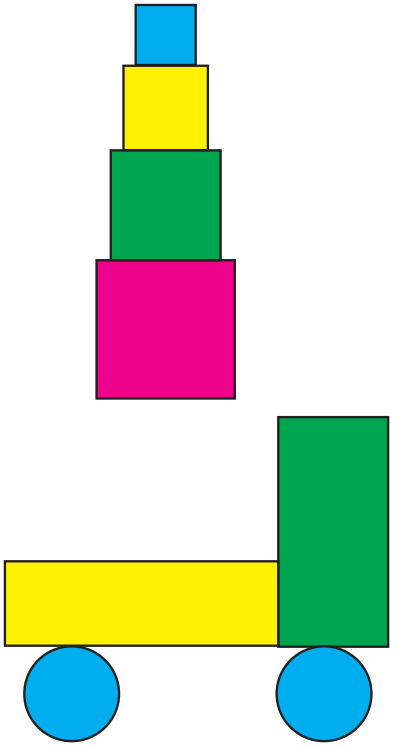

3.



Правообладатель Народная асвета

1.

□ + 1 □ – 1

1 2 3 4 5

2.

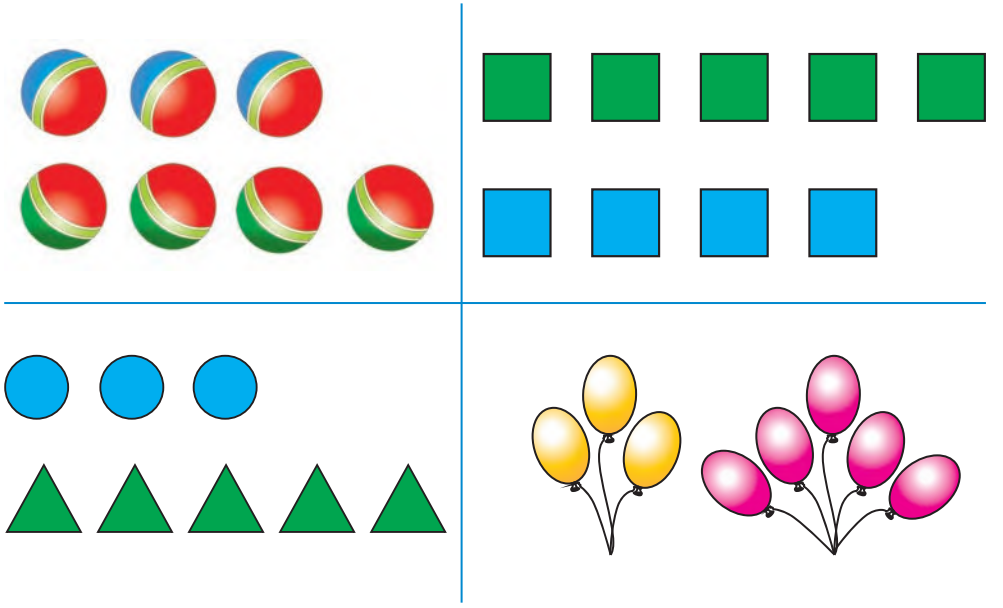

3.

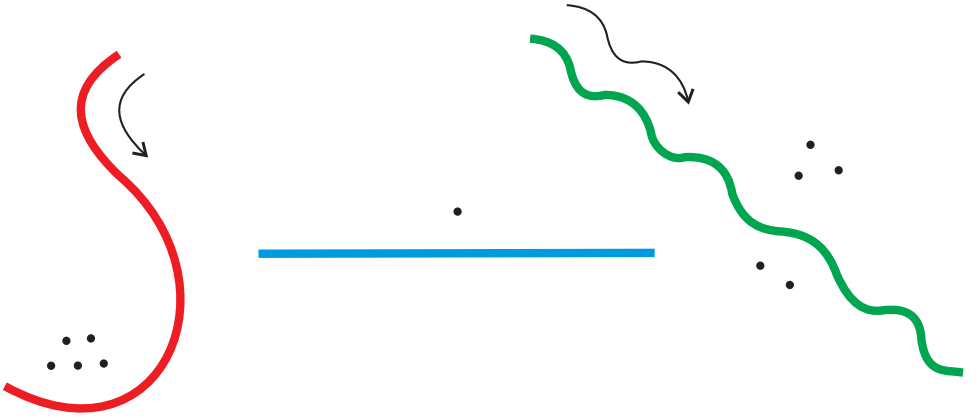

Правообладатель Народная асвета

1.



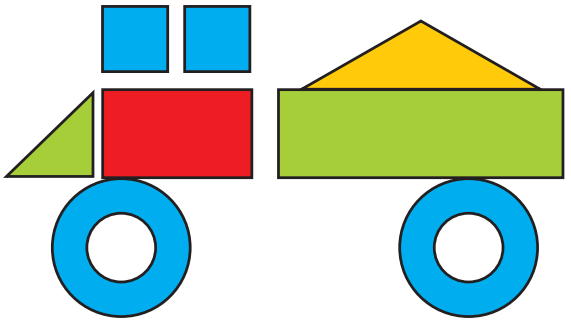

2.

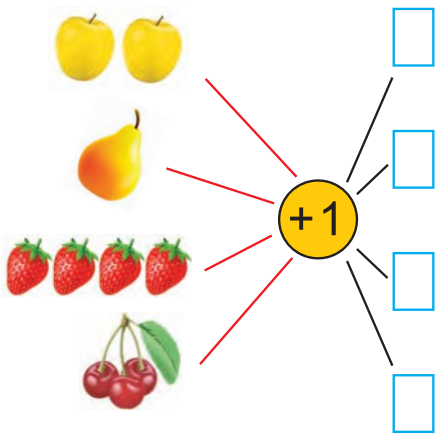

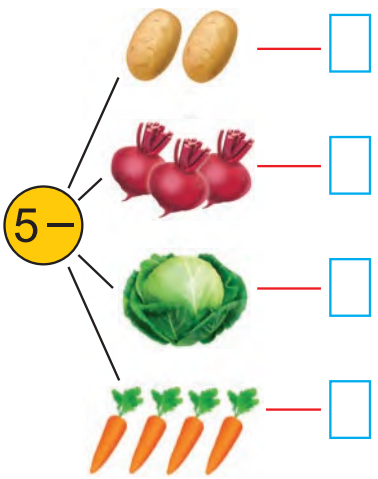

3.

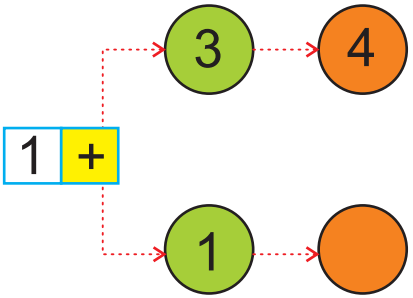

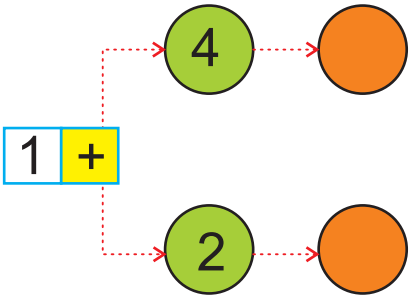

Правообладатель Народная асвета

1.

2.

2, 5, 1, 4, 3 — 1 ☐ ☐ ☐ ☐

4, 1, 2, 5, 3 — 5 ☐ ☐ ☐ ☐

3.

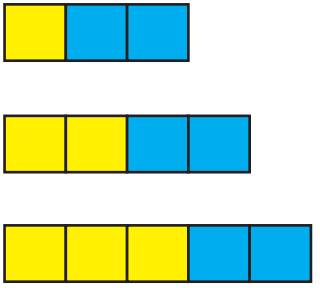

$1 + 2 =$ $3 - 2 =$

$2 + 2 =$ $4 - 2 =$

$3 + 2 =$ $5 - 2 =$

4.

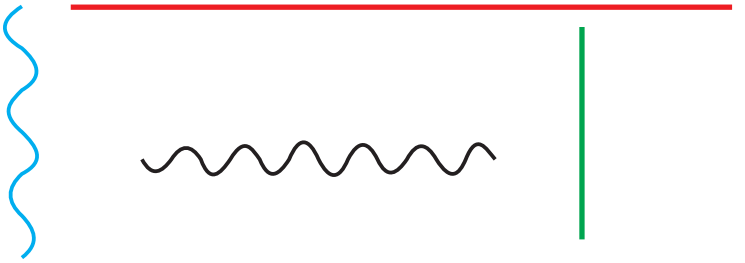

Правообладатель Народная асвета

ВТОРАЯ ЧЕТВЕРТЬ

Урок 1

1.

2

2.



3.

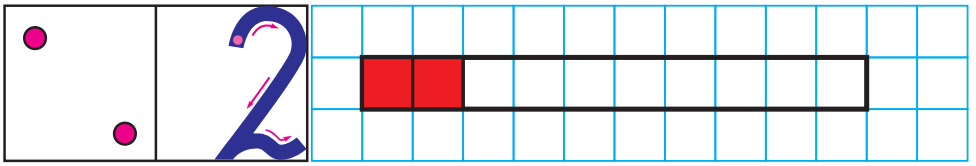

Правообладатель Народная асвета

4.



1 = 1

5.



2 = 2

6.



Правообладатель Народная асвета

1.

3

2.

3.

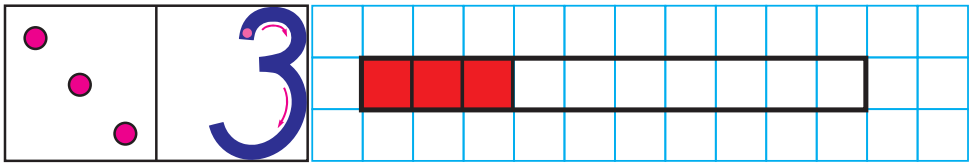

Правообладатель Народная асвета

4.

5.

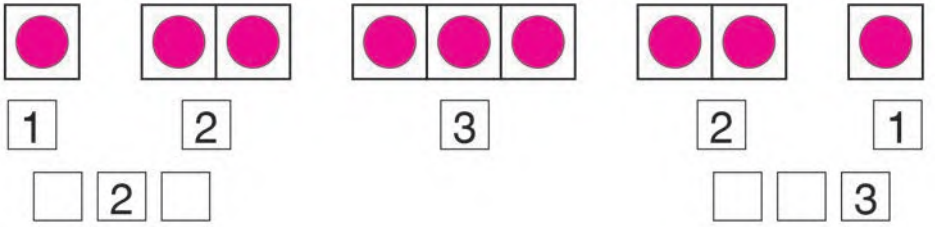

6.



7.

Правообладатель Народная асвета

1.



2.

3.

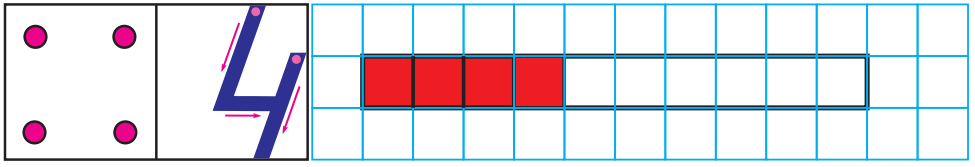

Правообладатель Народная асвета

4.



3 + 1 = 4

5.

□ + □ = □

6.

2 + 1 + 1 2 + 2 4 – 1

Правообладатель Народная асвета

1.

2.

3.

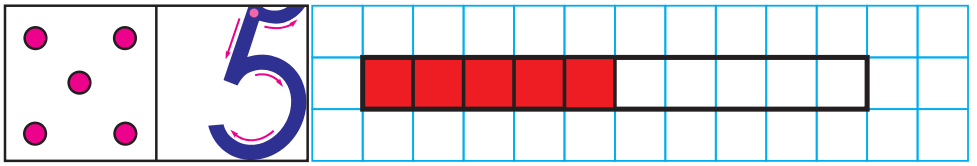

Правообладатель Народная асвета

4.

5.

1	2	...	4	5
1	...	3	4	5

5	4	3	...	1
1	...	3	4	5

1 2 3 4 □
□ 2 3 □ 5
1 □ 3 4 5

5 4 □ 2 1
5 □ 3 2 1
□ 4 3 2 1

6.

3 + 2
5 – 2

1 + 4
5 – 4

2 + 3
5 – 3

Правообладатель Народная асвета

1.

2.

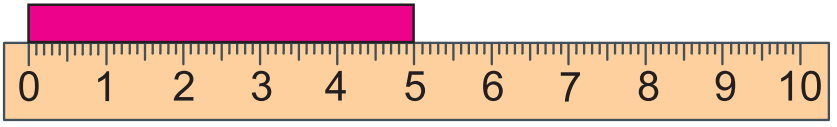

Правообладатель Народная асвета

3.

5	
4	1
3	2
2	3
1	4

4.

$\boxed{4} < \boxed{5}$

$\square > \square$

$\square = \square$

5.

$5 - \square = 3$

$\square + 3 = 5$

$\square + 4 = 5$

$5 - \square = 4$

$3 - 1 = \square$

$\square + 1 = 4$

6.



Правообладатель Народная асвета

1.



2.

2 + □ = 5	3 + □ = 4	1 + □ = 5
4 + □ = 5	2 + □ = 4	3 + □ = 5
1 + □ = 5	□ + 1 = 4	□ + 2 = 5
□ + 1 = 5	1 + □ = 4	2 + □ = 5

3.

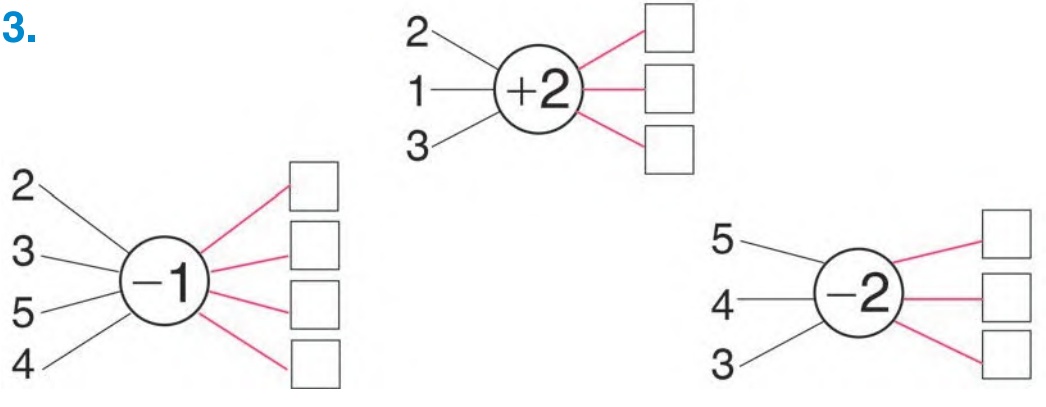

Правообладатель Народная асвета

1.

2 + 2 =	3 + 2 =	1 + 3 =
4 – 2 =	5 – 3 =	4 – 1 =
3 + 2 =	2 + 2 + 1 =	2 + 1 + 1 + 1 =
3 + 1 + 1 =	2 + 3 =	4 + 1 =
5 – 1 – 1 =	4 – 2 – 1 =	1 + 1 + 1 + 1 + 1=
5 – 2 =	4 – 3 =	5 – 4 =

2.

3.

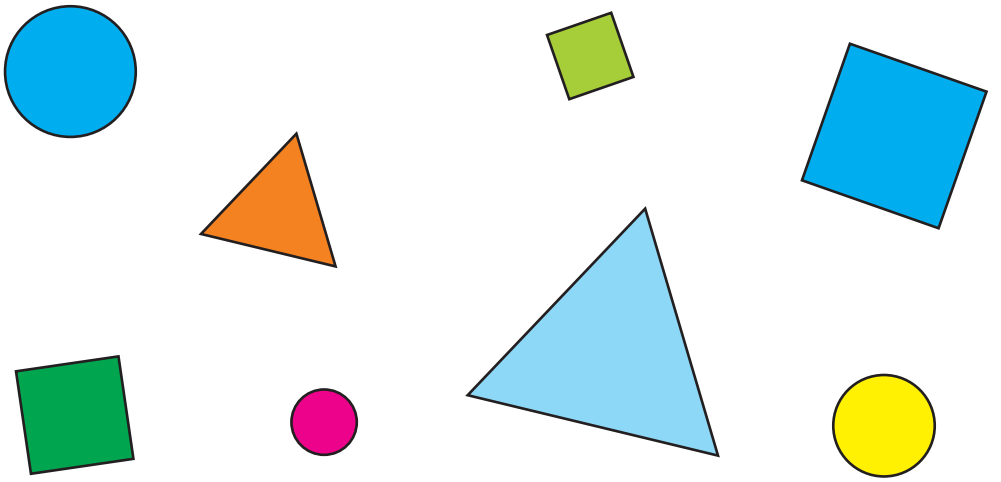

Правообладатель Народная асвета

1. 2 – 1 3 + 1 4 – 1
3 – 1 4 + 1 5 – 1

2.

3.

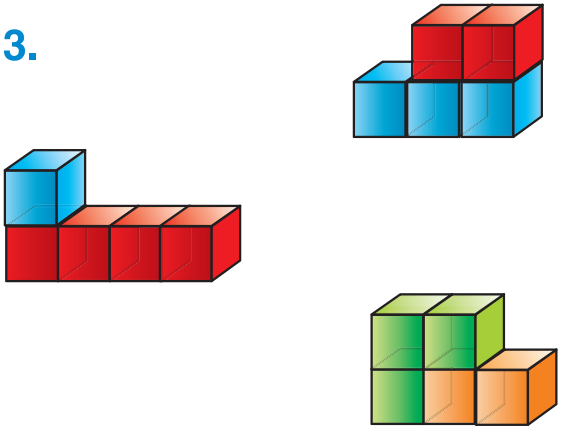

4.



5.

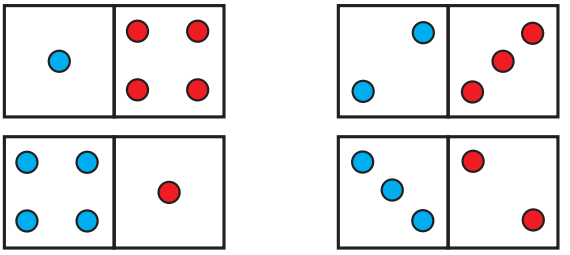

Правообладатель Народная асвета

1.



2.

1 + 1 = 2

2 – 1 = 1

3.

2 ☐ ☐ = ☐

1 ☐ 1 ☐ ☐

Правообладатель Народная асвета

1.



2.

3.

4.

Правообладатель Народная асвета

1.



2 + 1 = 3



3 – 1 = 2

2.



3 ☐ 1 ☐ ☐



2 ☐ 1 ☐ ☐

3.

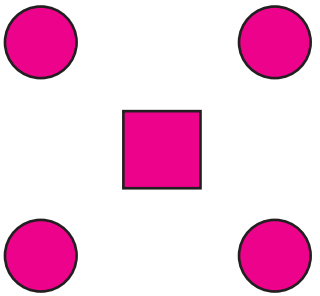

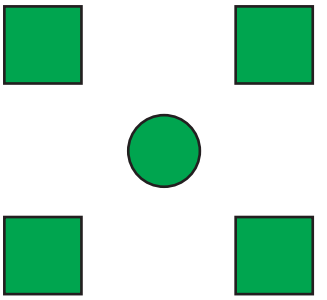

Правообладатель Народная асвета

1.

2. ☐ 2 ☐ ☐ 3 ☐ ☐ 1 ☐

3.



☐ + ☐ = ☐

4.



5.

Правообладатель Народная асвета

1.

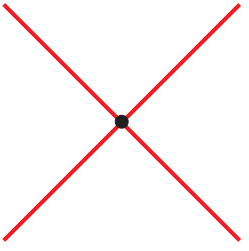

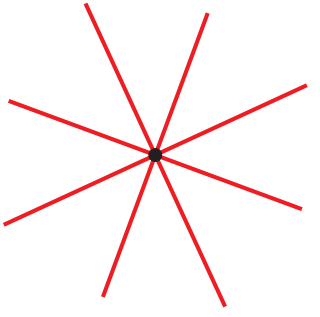

2.

4 + 1	4 – 1	5 – 3	3 + 1
5 + 1	3 + 2	5 – 2	2 + 1

3.



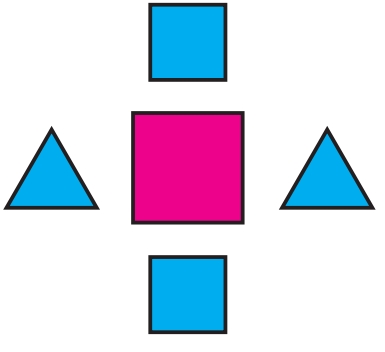



Правообладатель Народная асвета

1. 2 – 1 6 – 2 4 + 2
5 + 1 3 + 2 1 – 1

2. 2 + 2 =
□ + 2 = 4
□ + □ = 5

3.

4. 2 – 1 = 3 – 1 = 6 – 1 =
2 – □ = 1 3 – □ = 2 6 – □ = 3
□ – □ = 2 □ – □ = 4 □ – □ = 3

5.



6.

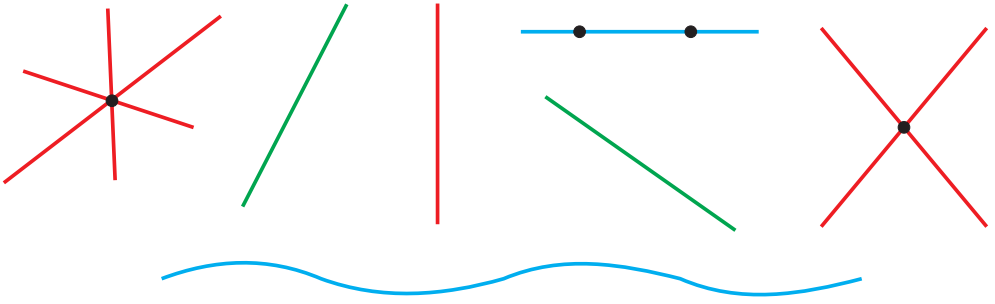

Правообладатель Народная асвета

1.

3 + ☐ = ☐

2 + 2 + ☐ = ☐



2 + ☐ = ☐

2.

4 + 1	3 + 2	2 + 3
4 – 1	2 – 2	5 – 2
1 + 1	4 – 3	2 – 1
3 + 1	3 – 1	2 + 1

3.

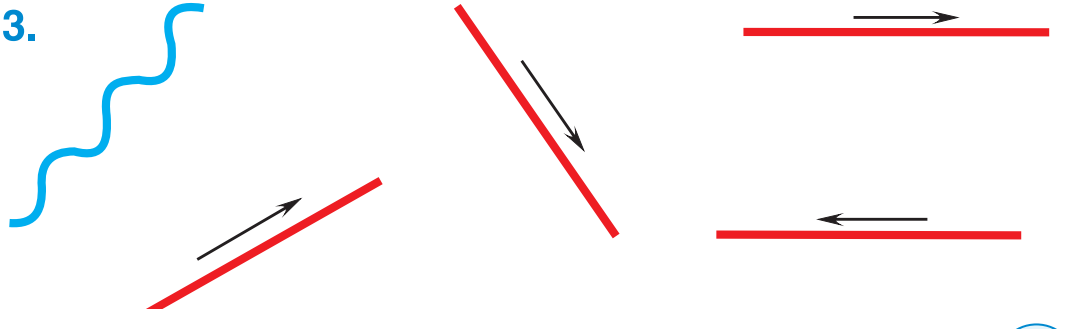

Правообладатель Народная асвета

1.

2.

6

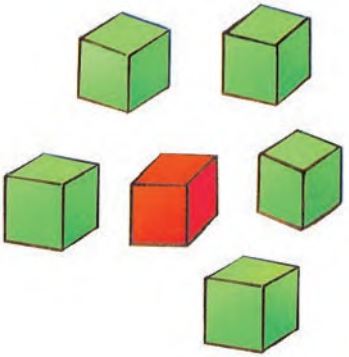

3.

	1	2	3	4	5	6

4. 5 + 1 = ☐ 1 + 5 = ☐

5.

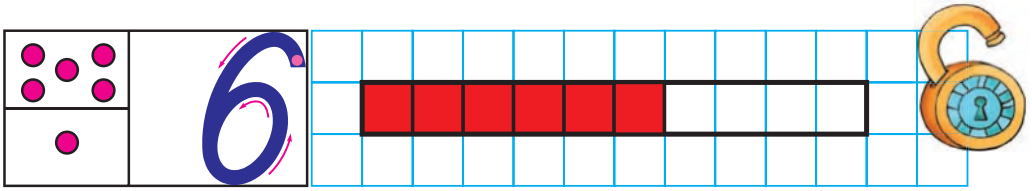

Правообладатель Народная асвета

6.

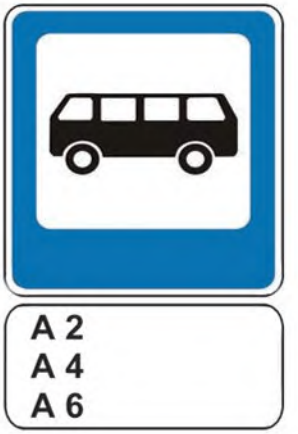

7.

8.

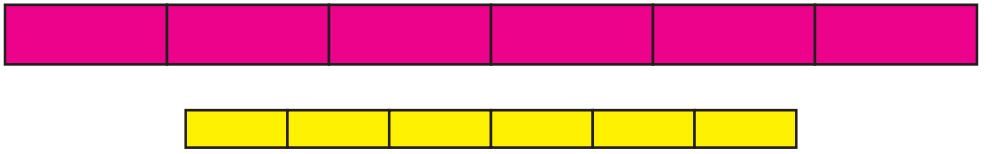

Правообладатель Народная асвета

1.

2.

3.

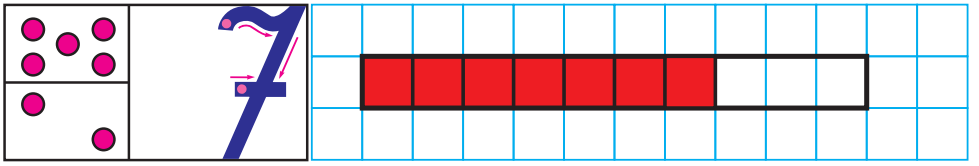

Правообладатель Народная асвета

4.



5.



1 + 6 = 7

\+ =

\+ =

\+ =

\+ =

6.

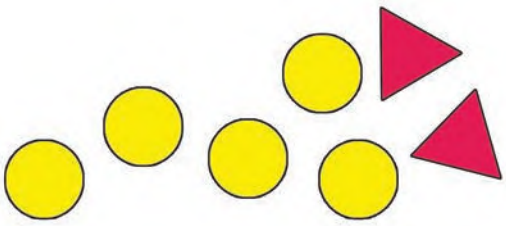

☐ + ☐ = ☐

7 − ☐ = ☐

Правообладатель Народная асвета

1.

2.

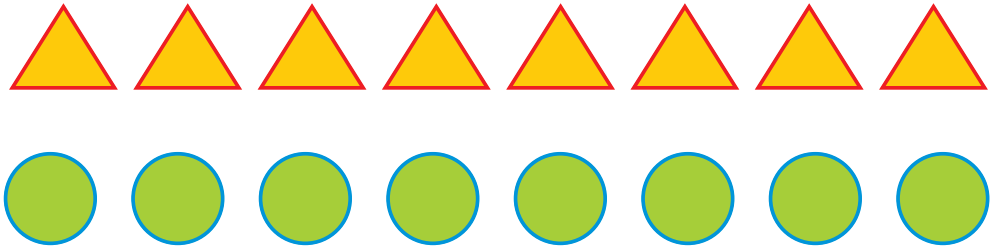

3.

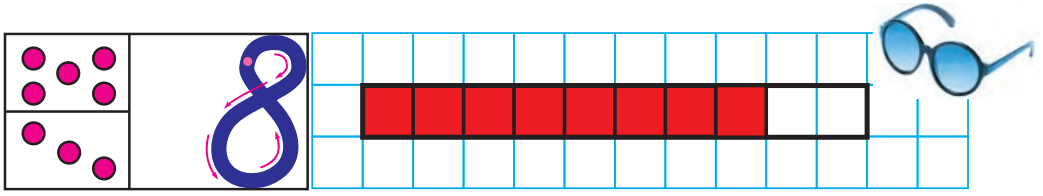

Правообладатель Народная асвета

4.

1	2	3	4	5	6	7	**8**



$7 + 1 = 8$ $8 - 1 = 7$

5.

6.

$4 + \square = 6$ $8 - \square = 7$ $3 + \square = 8$

$5 + \square = 7$ $7 - \square = 1$ $8 - \square = 6$

Правообладатель Народная асвета

1.

1	2	3	4	5	6	7	8	**9**



2.

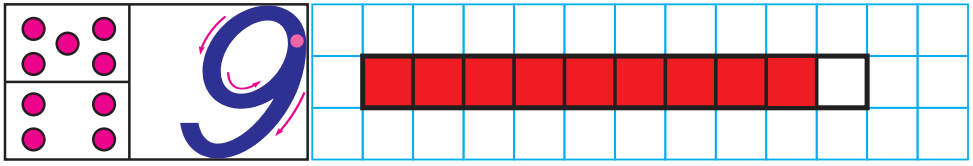

Правообладатель Народная асвета

3.

8 + 1 = ☐

4. Сравни.

6 ... 3	3 ... 6	5 ... 4
8 ... 1	1 ... 8	6 ... 3
3 ... 6	4 ... 5	2 ... 7
9 ... 6	9 ... 5	9 ... 7

5. Составь задачи.



8 + ☐ = ☐



5 + ☐ = ☐

Правообладатель Народная асвета

6.



7.

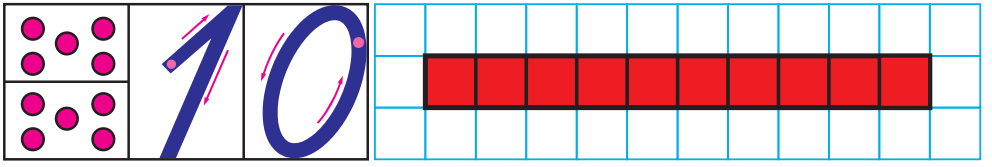

Правообладатель Народная асвета

8.

0	нуль
1	один
2	два
3	три
4	четыре
5	пять
6	шесть
7	семь
8	восемь
9	девять
10	десять



9.

Правообладатель Народная асвета

1.

0



2.

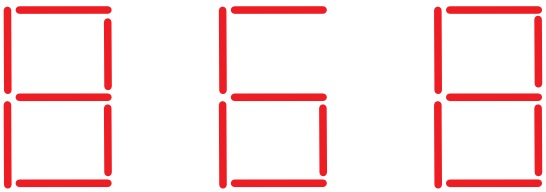

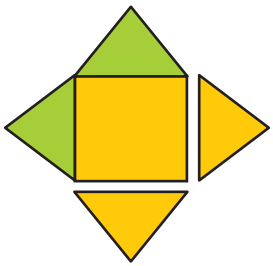

Правообладатель Народная асвета

1.

2.

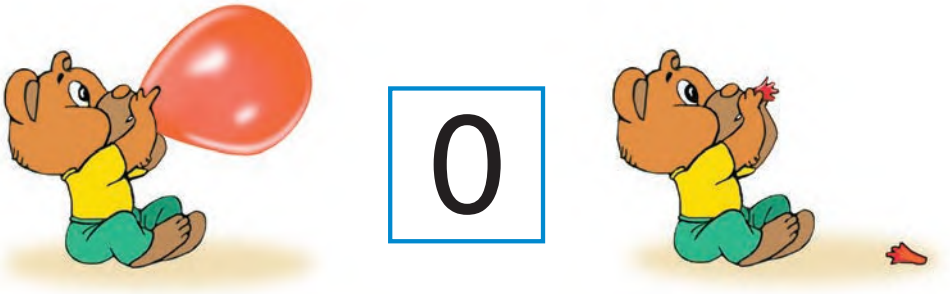

3.

4.

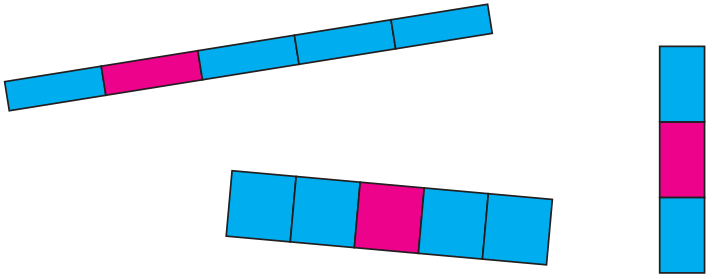

Правообладатель Народная асвета

1.

2 – 1 = 1

1 – 1 = 0

2.

2 – 2 = 0

3.

3 – 3 = 0

Правообладатель Народная асвета

4.

5. Сравни.

1 ... 1	2 ... 1	3 ... 1	3 ... 3
2 ... 1	3 ... 1	4 ... 1	2 ... 2

6.



7.

1 – 1 =	2 – 2 =	3 – 3 =
4 – 4 =	5 – 5 =	3 – 1 =

1 + 0 =	0 + 5 =	3 + 0 =
0 + 1 =	5 + 0 =	0 + 3 =

Правообладатель Народная асвета

1.

4 ☐ 4

5 = 5

☐ ☐ ☐

☐ ☐ ☐

2.

4 – 3 = ☐ ☐ + 2 = 3 5 – ☐ = 1

☐ + 2 = 4 5 – ☐ = 2 ☐ + 1 = 3

3.

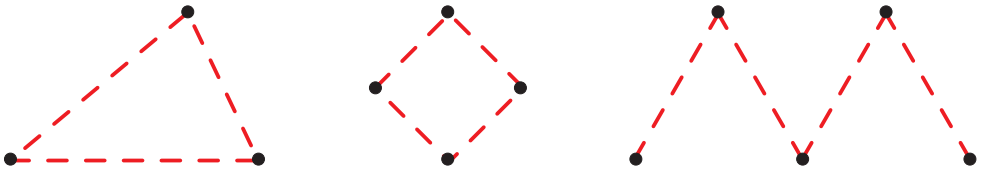

Правообладатель Народная асвета

4.

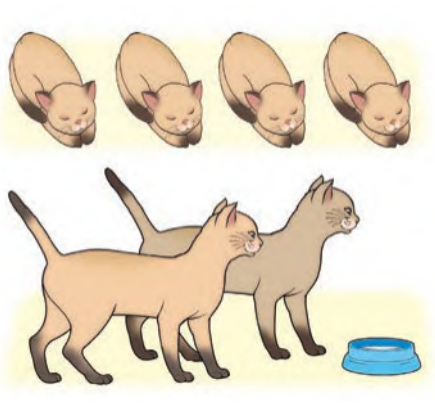



5.

6.

1 + 0 = 1	2 + 0 =	3 + 0 =
1 + 1 + 1	8 – 1 – 1	6 + 2
7 + 1	8 – 1	6 – 2

7.

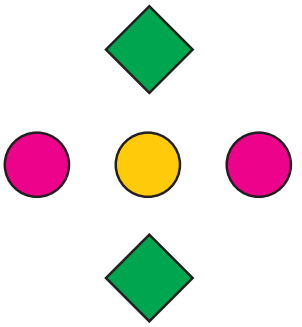

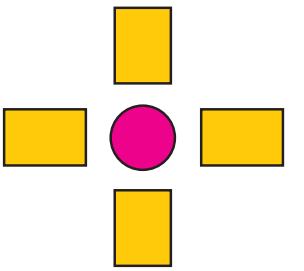

Правообладатель Народная асвета

1.

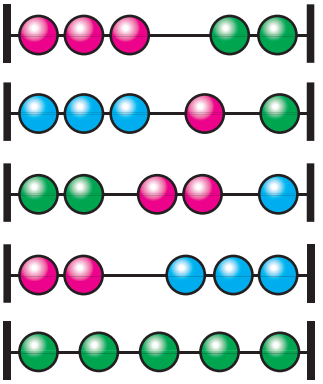

5 = 3 + 2

5 = 3 + □ + □

5 = □ + □ + □

5 = □ + □

5 = 1 + □ + □ + □ + □

2.



3.

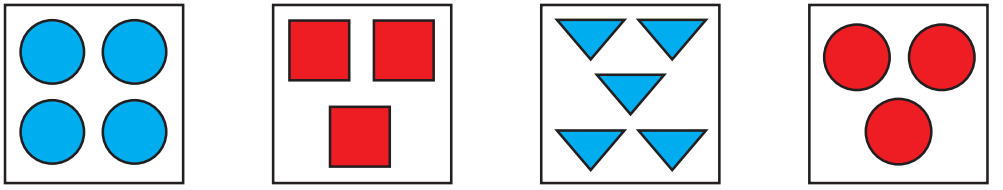

4.

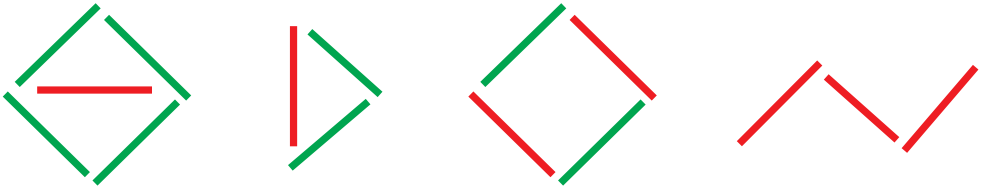

Правообладатель Народная асвета

5.

6.

□ + □ = □ □ – □ = □

Правообладатель Народная асвета

1.

3 + 2 2 + 3 5 – 2 5 – 3

2.

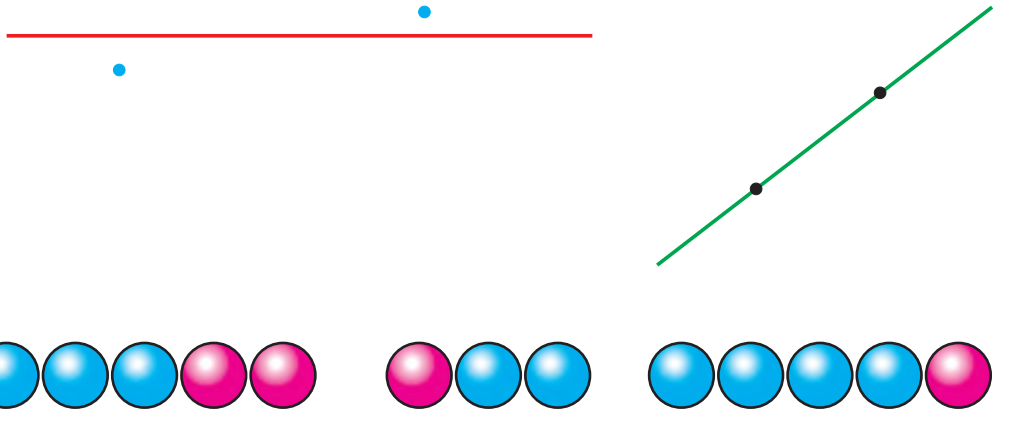

3.



Правообладатель Народная асвета

4. 1 + 1 = 2 – 1 = 1 + 2 =
2 + 1 = 3 – 1 = 2 + 2 =

5.



∅∅○○○

5 – □ = □

6. 1 + 1 = 5 – 1 – 1 = 4 + 0 =
3 + 1 + 1 = 4 – 1 – 1 = 4 – 4 =
2 + 1 + 1 = 3 – 1 – 1 = 0 + 4 =

7.

3 + □ = □

Правообладатель Народная асвета

1.

4 = 4

□ = □

2.

3.





1 + □ + □ + □ = 4

1 + □ = □

4.

1		2		...		4					...		3		2		1
...		2		...		4					4		3		...		1

Правообладатель Народная асвета

1.

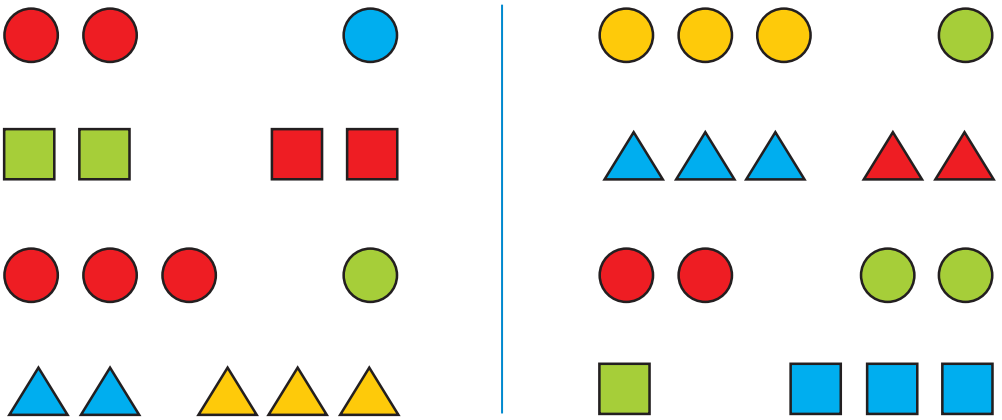

2.

3.

3 + 1	5 – 1	5 – 2	1 + 3
2 + 1	3 – 1	2 + 3	4 – 2

Правообладатель Народная асвета

1.

2.

2 + 1 =	2 – 1 =	4 – 2 =
1 + 3 =	2 + 2 =	3 – 1 =
3 – 2 =	4 – 1 =	3 + 1 =

3.

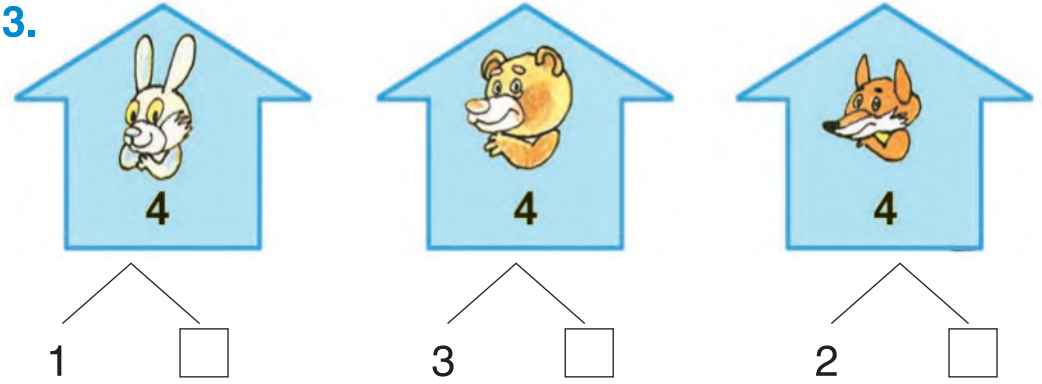

4.

2 + □ = 3	4 – □ = 2	1 + □ = 2
3 – □ = 1	□ – 1 = 2	□ + 3 = 4

Правообладатель Народная асвета

5.

6. 4 = □ + □ 5 = 3 + □

3 = □ + □ 5 = 1 + □ + □

---

1 + 1 = 2 + 1 = 4 + 1 =

5 – 1 = 3 – 1 = 4 – 1 =

7. У Милы 🍎🍎. У Иры 🍎.

Сколько всего яблок?

8.



Правообладатель Народная асвета

1.



2.

3.

$8 = 7 + 1$

$8 = 6 + 2$

$8 = 5 + \square$

$8 = 4 + \square$

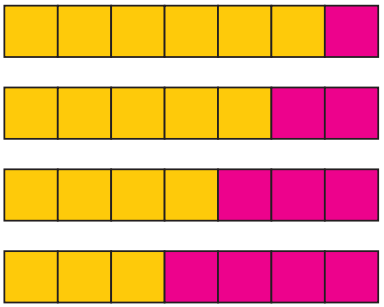

$8 = 1 + 7$

$8 = \square + \square$

$8 = 3 + \square$

$8 = \square + \square$

4. $7 + 1$ $\quad$ $5 + 2$ $\quad$ $6 + 1$ $\quad$ $6 + 2$

$5 + 1$ $\quad$ $8 - 6$ $\quad$ $7 - 2$ $\quad$ $8 - 1$

5.

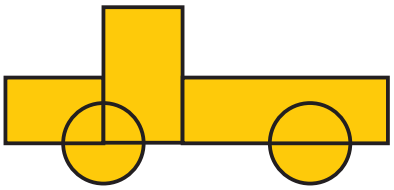

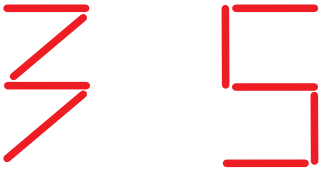

Правообладатель Народная асвета

1.

1	2	3	4	**5**



2.

2 – 1	3 + 1	4 – 1	1 + 1 + 1 + 1
2 + 1	3 – 1	4 + 1	4 – 1 – 1

3.

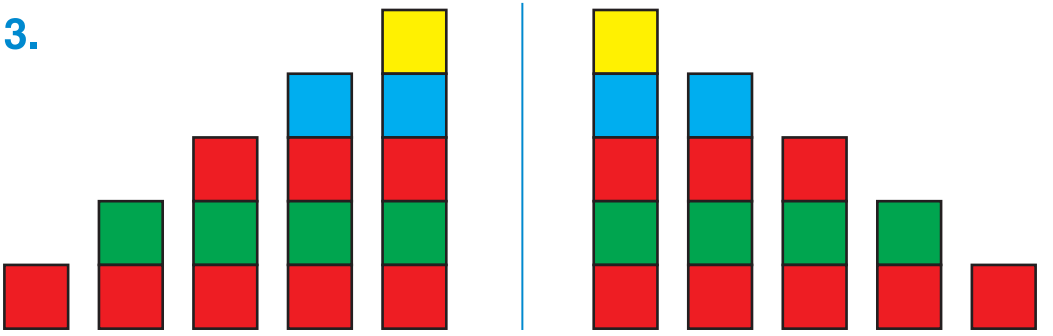

Правообладатель Народная асвета

ТРЕТЬЯ ЧЕТВЕРТЬ

Урок 1

1. Составь задачу.

2. Реши примеры.

1 + 2	4 + 1	3 – 1
1 + 1	4 – 1	2 + 2
3 – 2	2 – 1	1 + 4
2 + 1	1 + 1	5 – 1

3. Кто первый? Кто последний?



Правообладатель Народная асвета

4. Составь задачу.

5. Сосчитай и сравни.

6. Сравни.

Правообладатель Народная асвета

1. Составь задачу.

2. Вычисли.

6 = 1 + □	2 = 1 + □	8 = 7 + □
7 = 3 + □	9 = 5 + □	3 = 2 + □

2 + 4	5 + 3	6 – 2	4 – 2
4 + 2	5 + 1	5 – 2	9 – 2

6 + 1	7 – 4	7 – 1	6 + 2
5 + 2	7 – 5	4 – 2	5 – 1

Правообладатель Народная асвета

3. Составь и реши задачу.



4. Составь задачи.



5. Выложи по образцу.

Правообладатель Народная асвета

1. Составь задачи.

2. Вычисли.

5 + 1 – 1	4 – 2 – 2	6 + 3 – 3
7 + 1	1 + 7	5 + 1
7 – 2	9 – 2	5 – 1

3. Запиши справа большее число.

6 ☐ 9 ☐☐

Запиши слева меньшее число.

☐ 8 ☐ 5

4. Вычисли.

6 + 3 = **9**

4 + 5 6 + 4 10 – 5 8 – 2

Правообладатель Народная асвета

1. Сравни.

4 ... 7	5 ... 3	2 ... 1	6 ... 9
6 ... 5	7 ... 1	4 ... 3	4 ... 1

2. Назови соседнее число.

3 ☐	6 ☐	4 ☐	1 ☐	5 ☐	2 ☐
☐ 5	☐ 2	☐ 6	☐ 3	☐ 7	☐ 4

3. Составь задачи.



Правообладатель Народная асвета

1. Назови машины. Какие едут налево? Какие едут направо?



2. Составь задачу.

3. Назови пропущенные числа.

7	6	...	4	3	2	1
7	6	5	4	...	2	1
7	6	5	...	3	2	1

1	2	3	4	...	6	7
1	...	3	4	5	6	7
1	2	...	4	5	6	7

4. Назови фигуры. Сосчитай и сравни.

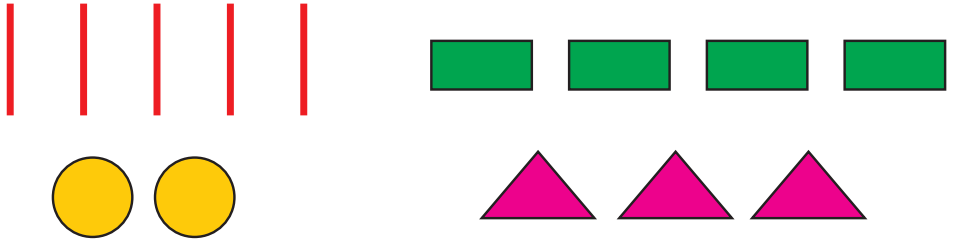

Правообладатель Народная асвета

1. Сосчитай и сравни.

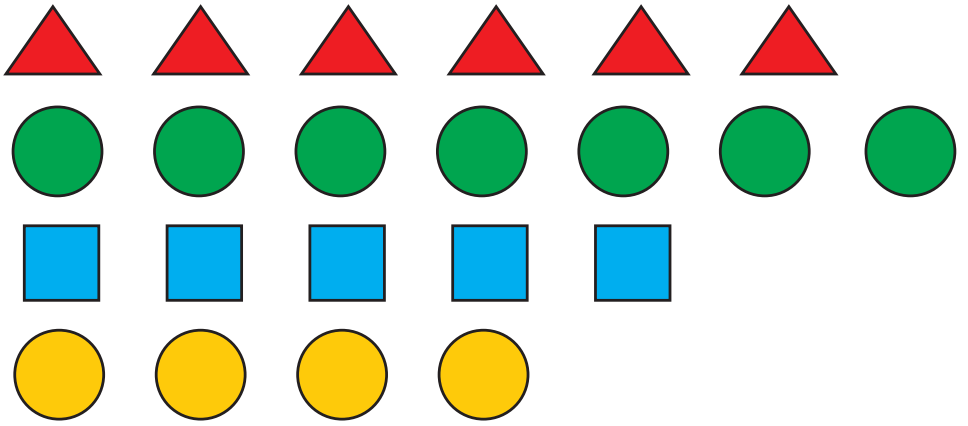

2. Вычисли.

6 + 1	7 – 4	7 – 1
5 + 2	7 – 5	4 – 2
7 + 1	6 – 1	3 + 2
7 – 1	5 + 1	3 – 1

5 + □ = 7 5 – □ = 4 1 + □ = 7

3. Составь задачи.

Правообладатель Народная асвета

1.

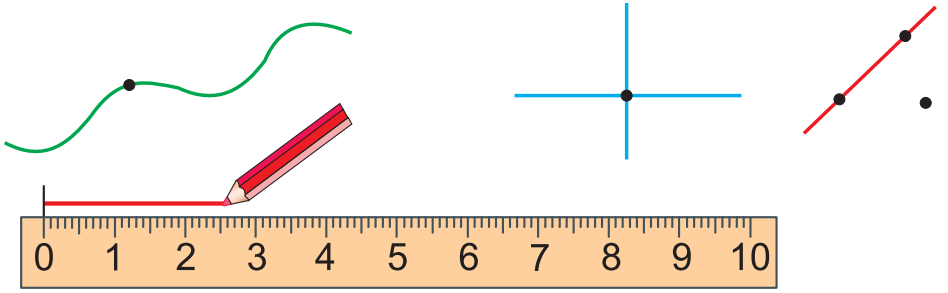

2. Реши примеры.

4 + 2	9 – 2	10 – □ = 8
6 – 2	7 – 2	□ – 2 = 6

8 – 2	9 – 2	6 + 2
8 – 1 – 1	9 – 1 – 1	6 + 1 + 1

3. Составь примеры.

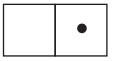
0 + 1 = 1

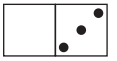

□ + □ =

4. Сосчитай птиц.

5 + □ = 10

Правообладатель Народная асвета

1. Назови линии.



2. Составь и реши примеры по образцу.

$8 - 3 = 5$

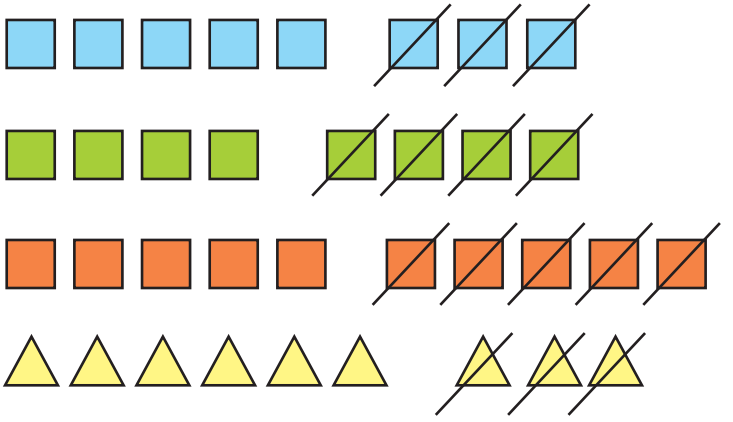

3. Назови числа на линейке.

Правообладатель Народная асвета

1. Какие числа пропущены? Назови.

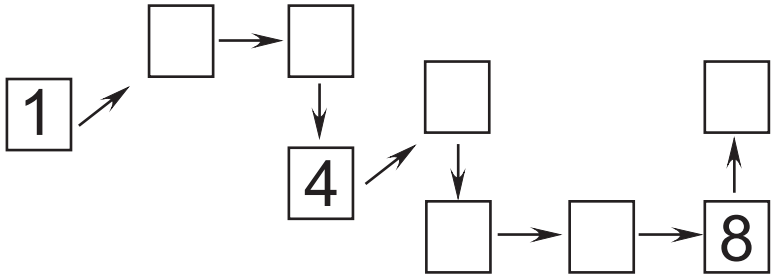

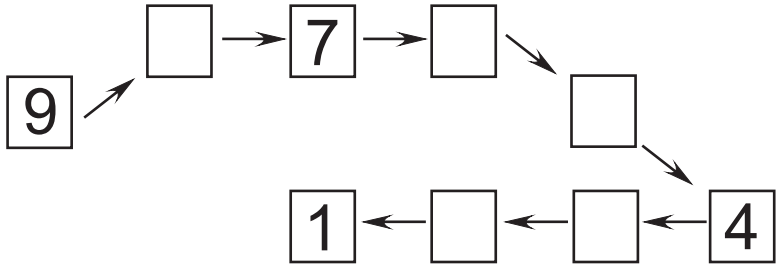

2. Составь задачу.

Правообладатель Народная асвета

1. Какие числа пропущены?

...	2	...	4	5	6
1	...	3	4	...	6
1	2	3	4	5	...

6	5	4	3	...	1
6	...	4	...	2	1
...	5	4	3	2	1

2. Сосчитай и сравни.

2 = ☐



4 = ☐

6 = ☐

3. Какие числа спрятались?

☐ 4
5 ☐
☐ 5 ☐

☐ 4 ☐
3 ☐
☐ 1 ☐

☐ 6
☐ 2 ☐
☐ 3

Правообладатель Народная асвета

1. Вычисли.

8 – 1 = □	6 – □ = 5	3 – 1
7 – 1 = □	□ – 1 = 4	5 – 1
6 – 2 = □	8 – □ = 6	8 – 2
5 – 2 = □	□ – 2 = 5	8 – 3
1 + 2 = □	1 + □ = 2	4 + 1
2 + 2 = □	□ + 1 = 3	7 + 1

2. Назови форму предметов.

Правообладатель Народная асвета

1. Вычисли. Заполни домик.

1 + 1	2 – 1
2 + 1	3 – 1
3 + 1	4 – 1
4 + 1	5 – 1
5 + 1	6 – 1
6 + 1	7 – 1
7 + 1	8 – 1

8	
1	7
	6
3	
	4
5	
	2
7	
	3
6	
2	

2. Составь задачу.



3. Сосчитай и сравни.

4. Назови фигуры. Найди одинаковые.

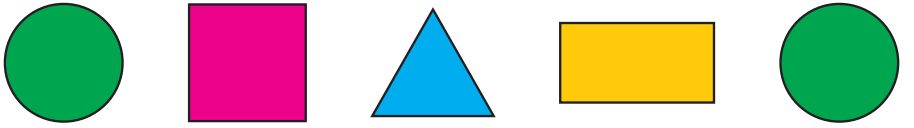

Правообладатель Народная асвета

1. Сосчитай, сколько предметов. Назови их.

2. Сосчитай пары предметов.

3. Реши примеры.

3 + 1	3 – 1	2 + 4
3 + 2	3 – 2	4 + 2
3 + 3	5 – 3	6 – 4

Правообладатель Народная асвета

1. Вычисли.

5 – 2 = **3**

6 – 3 8 – 2 10 – 3

2. Найди пары. Сосчитай, сколько пар одежды.

3. Покажи правильно написанные цифры.

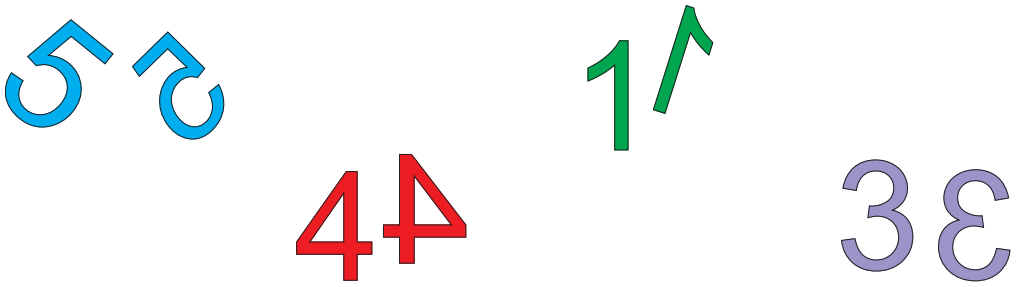

Правообладатель Народная асвета

1. Составь задачу.



○○○○○○∅∅

2. Сосчитай и сравни.



3. Вычисли.

8 – 1	7 – 5	8 – 4
8 – 8	7 – 7	4 – 4
7 + 1	6 – 1	3 + 2
7 – 1	5 + 1	3 – 1

4. Назови и сравни.

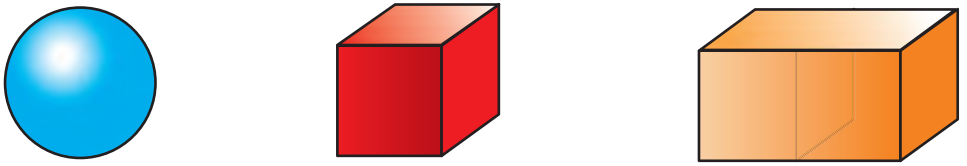

Правообладатель Народная асвета

1. Составь задачу.



2. Вычисли.

6 + 2	4 + 4	5 + 3
8 – 2	8 – 4	8 – 3

6 + 2	1 + 7	5 + 1 + 1 + 1
2 + 6	8 – 7	5 + 2 + 1

3. Назови соседнее число.

3 ☐	6 ☐	1 ☐	3 ☐	☐ 4	☐ 7	☐ 1
4 ☐	5 ☐	9 ☐	2 ☐	☐ 2	☐ 5	☐ 8

← 7 → ← 5 ← 8

Правообладатель Народная асвета

1. Реши примеры.

4 + 2	3 + 3	3 + 2
2 + 4	6 – 3	2 + 3
6 – 2	3 – 3	5 – 2

2. Составь задачу.

□ + □ = 6

3. Составь примеры.

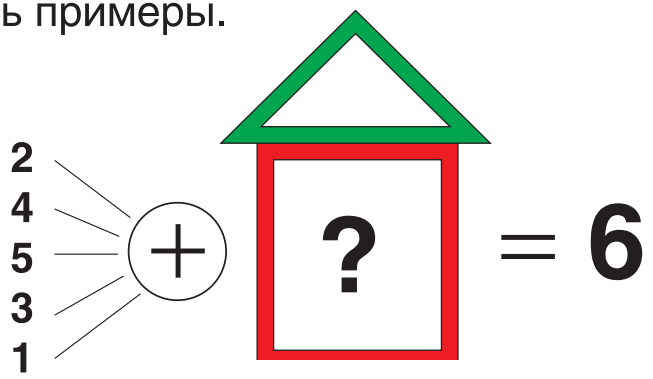

4. Нарисуй по образцу.

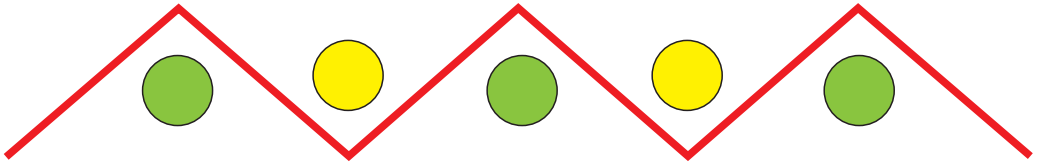

Правообладатель Народная асвета

1. Сосчитай.

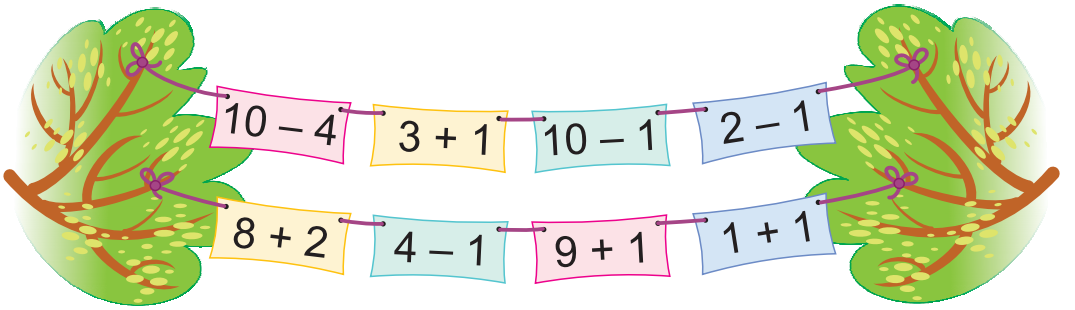

2. Сравни числа.

Какое число **больше**?		Какое число **меньше**?	
10 и 9	9 и 7	2 и 4	5 и 6
8 и 2	7 и 9	7 и 5	10 и 3

3. Назови время на часах.

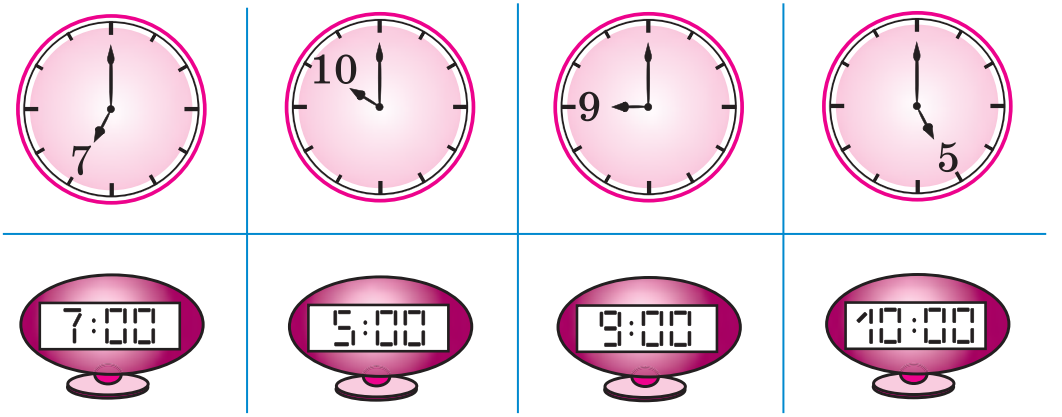

Правообладатель Народная асвета

1. Составь задачу.

2. Сосчитай. Запомни!

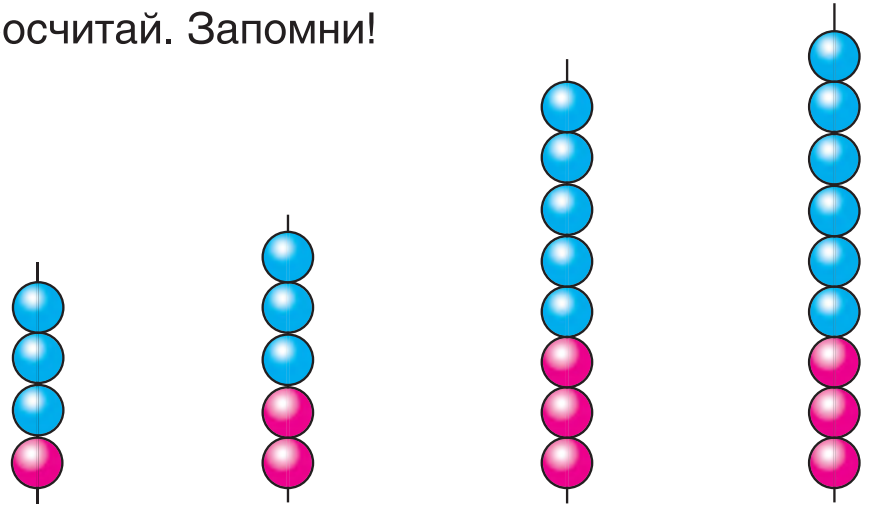

1 + 3	2 + 3	5 + 3	6 + 3
4 – 3	5 – 3	8 – 3	9 – 3

3. Составь примеры.

3 + □ = 6 □ – 3 = 7 □ + 5 = 9

6 – □ = 3 7 – 3 = □ 9 – □ = 5

Правообладатель Народная асвета

1. Сосчитай и сравни.

2. Составь задачи.



3. Считай.

0	1	2	3	4	5	6

6	5	4	3	2	1	0

4. Реши примеры.

4 + 1 + 1 6 – 1 – 1 3 + 3
2 + 2 + 2 4 + 2 6 – 2 – 1

Правообладатель Народная асвета

1. Составь задачу.

8 + 2
10 – 2

2. Сосчитай парами.



3. Вычисли. Запиши в тетрадь.

5 + 1 + 1	8 + 1 + 1	7 + 1 + 1
8 – 1 – 1	7 – 1 – 1	10 – 1 – 1

5 + 3	7 + 3	6 + 2 + 2
10 – 2	10 – 3	8 – 2 – 2

4. Назови числа.

Правообладатель Народная асвета

1. Составь задачи.



$4 + \square = 5$

$5 - \square = 3$

2. Вычисли.

$1 + 1 + 1$ $\quad$ $2 + 2 + 2$ $\quad$ $3 + 3 + 3$

3. Прочитай правильно.

$8 = 4 + 4$ $\quad$ $9 = 3 + 3 + 3$ $\quad$ $8 = 2 + 2 + 2 + 2$

4. Назови геометрические фигуры.
Найди одинаковые. Составь пример.

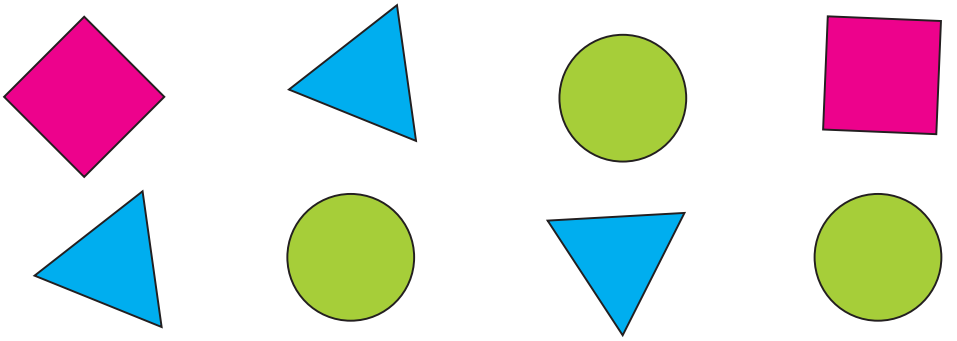

$8 = \square + \square + \square$

Правообладатель Народная асвета

1.

Сколько тетрадей? Сколько ручек? Чего больше? Чего меньше? Какое число больше: 4 или 3?

2.

Гриша купил карандаши: красный, синий, жёлтый, зелёный. Маша купила столько же карандашей. Сколько карандашей купила Маша?

3. Поставь в тетради точку. Проведи через неё две прямые линии.

4. Вычисли.

6 + 4	5 – 5	5 + 1
□ – 4 = 4	□ – 5 = 1	6 – 1

5. Выложи по образцу. Назови числа.

Правообладатель Народная асвета

1. Составь задачу.

2. Реши примеры.

5 + 5	8 + 2	6 + 4
10 – 5	10 – 8	10 – 6

3. Какие числа спрятались?

4 – □ = 3	5 – □ = 1	2 – □ = 0
□ – 1 = 4	□ – 3 = 0	□ – 5 = 1

4. Составь примеры по рисункам.

5. Сосчитай клеточки в фигурах. Начерти в тетради такие же геометрические фигуры.

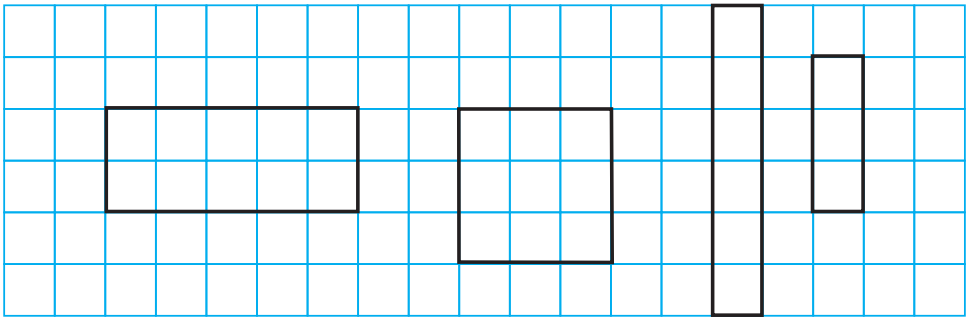

Правообладатель Народная асвета

1. Сосчитай и сравни.



2. Составь задачи.



5 + 1



5 – 2

3. Нарисуй в тетради по образцу.

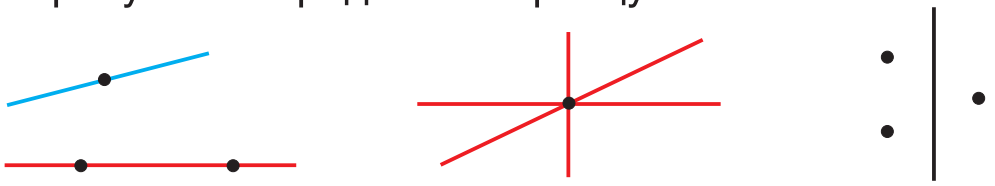

Правообладатель Народная асвета

1. Составь задачу.



2. Вычисли.

1 + 1 + 2	5 – 1 – 1	2 + 2 + 2
1 + 2 + 2	5 – 2 – 2	5 – 2 – 1
8 + 1 + 1	4 – 1 – 1	1 + 2 + 1

3. На полке стоят 5 красных чашек и 1 синяя. Сколько всего чашек на полке?

4. На озере плавали 6 уток. 2 утки улетели. Сколько уток осталось?

Правообладатель Народная асвета

1. Составь задачу.

2. Реши примеры.

1 + 1 + 1 + 2	2 + 1 + 2	3 + 1 + 1
6 – 2 – 2 – 2	3 + 2 + 1	2 + 2 + 2
6 – 6	5 + 2 + 3	4 + 1 + 1

3 + 2	4 + 1	2 + 1
5 – 3	5 – 4	1 + 2
3 + 3	8 + 1	10 – 1

3. Найди знакомые фигуры. Назови их.

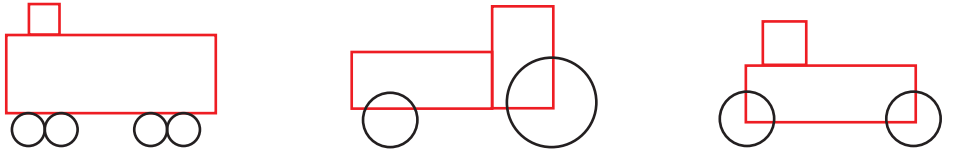

Правообладатель Народная асвета

1. На ветке сидела 1 птичка.
Прилетела ещё 1 птичка.
Сколько стало птичек?

Задача

1) 1 + 1 = 2

2. **На берегу сидели 3 лягушки.**
1 лягушка прыгнула в воду.
Сколько лягушек осталось?

Задача

1) 3 − 1 = 2

3. Проведи 2 красные линии и 2 зелёные.
Сколько всего линий получилось?

4. Сосчитай квадраты.

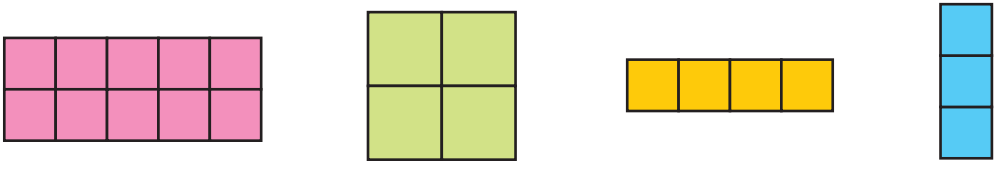

Правообладатель Народная асвета

1. Составь задачу.

2. Реши задачи.

В семье 8 человек: дедушка, бабушка, отец, мать и дети. Сколько в семье детей?

В классе было 6 учеников. Сначала из класса вышел 1 ученик, потом ещё 1. Сколько учеников осталось в классе?

Во дворе играли 10 детей. 4 девочки ушли домой. Сколько детей осталось во дворе?

3. Вычисли.

3 + 2	9 + 1	3 + 4
2 + 3	4 + 5	3 + 5
4 – 1	8 – 4	6 – 3

Правообладатель Народная асвета

1. Составь примеры.

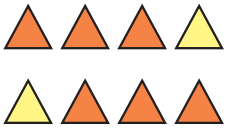

$3 + 1 = 4$
$1 + 3 = 4$





$1 + 4 = 5$
$4 + 1 = 5$

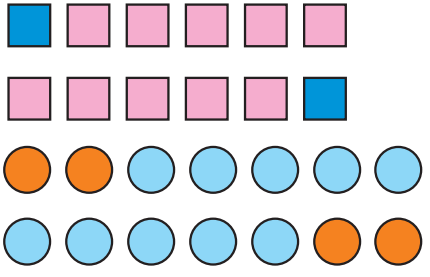

2. Вычисли.

$9 + 1$	$10 - 1$	$10 - 9$	$6 + 4$
$8 + 2$	$10 - 5$	$10 - 7$	$10 - 6$

3. Составь задачу и реши её.



3 – □ = □

Правообладатель Народная асвета

1. Составь примеры.

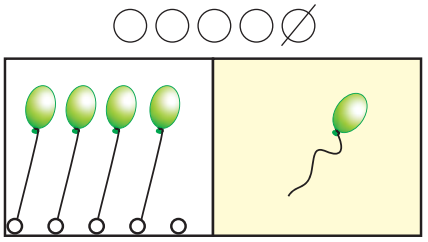

5 – 1 = 4

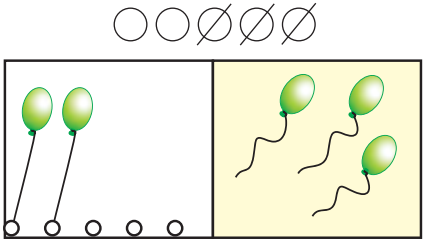

□ – □ = □

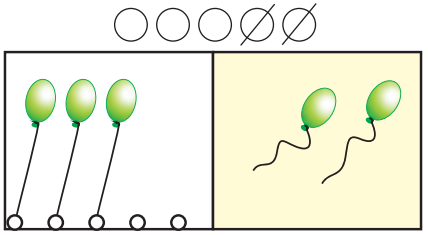

□ – □ = □

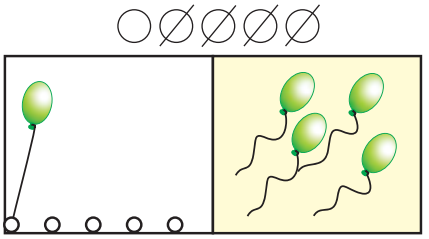

□ – □ = □

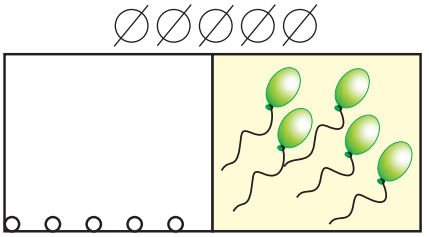

5 – 5 = □

2. Сравни по возрасту.

Правообладатель Народная асвета

3. Реши задачи.

Учительница дала ученику сначала **3** тетради, а потом ещё **2**. Сколько всего тетрадей дала учительница ученику?

Коля поймал .

Ваня поймал .

Сколько всего рыбок поймали дети?

4. Вычисли.

$4 = 3 + \square$	$3 = \square + \square + \square$	$5 = 3 + \square$
$5 = \square + 1$	$4 = \square + \square$	$2 = \square + \square$

$2 + 1$	$4 - 1$	$3 + 1$
$3 - 1$	$5 - 1$	$9 + 1$

5. Кто первый? Кто последний?

Правообладатель Народная асвета

1. Кто нарисован? Кто старше? Кто младше?

2. Вычисли.

5 + 1	4 + 1	3 + 3
5 + 3	5 + 2	2 + 4

6 – 3	10 – 1	8 – 5
5 – 3	8 – 4	9 – 5
9 – 4	8 – 5	9 – 2

Правообладатель Народная асвета

3. Рассмотри рисунки.
Расскажи о временах года.

Правообладатель Народная асвета

1. Составь задачу.



2. Вычисли.

7 – 2	3 + 5	8 – 5
8 – 3	4 + 5	10 – 5
5 – 1	5 + 5	6 – 1
2 + 5	1 + 5	5 + 1

3. Реши задачу.

Антону 10 лет. Сестра моложе брата на 5 лет. Сколько лет сестре?

4. Сравни. В каком кувшине воды больше? В каком меньше?

Правообладатель Народная асвета

1. Рассмотри рисунок. Назови формы предметов.



2. Какие фигуры пропущены? Назови.



3. Вычисли.

1 + 0	4 – 4	3 – 3	6 – 6
2 – 2	1 + 1	0 + 5	8 – 8

Правообладатель Народная асвета

1. Найди знакомые фигуры.



2. Реши задачу.

В корзине было 10 морковок. 4 морковки отдали кроликам. Сколько морковок осталось в корзине?

3. Реши примеры.

$3 + 3 =$	$3 + 2 =$
$3 + 1 + 1 + 1 =$	$3 + 1 + 1 =$
$2 + 2 =$	$2 + 3 =$
$2 + \square + \square =$	$2 + \square + \square + \square =$

$1 + 1 + 1$	$1 + 1 + 1 + 1$
$2 + 1$	$2 + 1 + 1$
$6 + 2 + 2$	$7 + 2 + 1$

Правообладатель Народная асвета

1. Назови числа на карточках.

3 = □ □ = 5 4 = □

□ = 7 1 = □ □ = 6

2. Дополни до 7.

7		7		7		7		7		7	
6			6	5			5	3		4	

3. Составь задачи и реши их.

Было . Продали .

Осталось — ?

4. Реши примеры.

3 + 3	5 + 2	2 + 3	4 + 3
5 + 1	5 + 1	4 + 2	2 + 5

Правообладатель Народная асвета

1. Составь и реши задачу.



2. Назовите соседнее число.

7 ☐ 5 ☐ ☐ 2 ☐

☐ 2 ☐ 4 ☐ ☐ 7

1 ☐ 3 ☐ 5 6 7

7 6 ☐ 4 3 ☐ 1

3. Составь и реши задачи.

4. Назови фигуры. Сосчитай.







Правообладатель Народная асвета

1. Назови цифры.

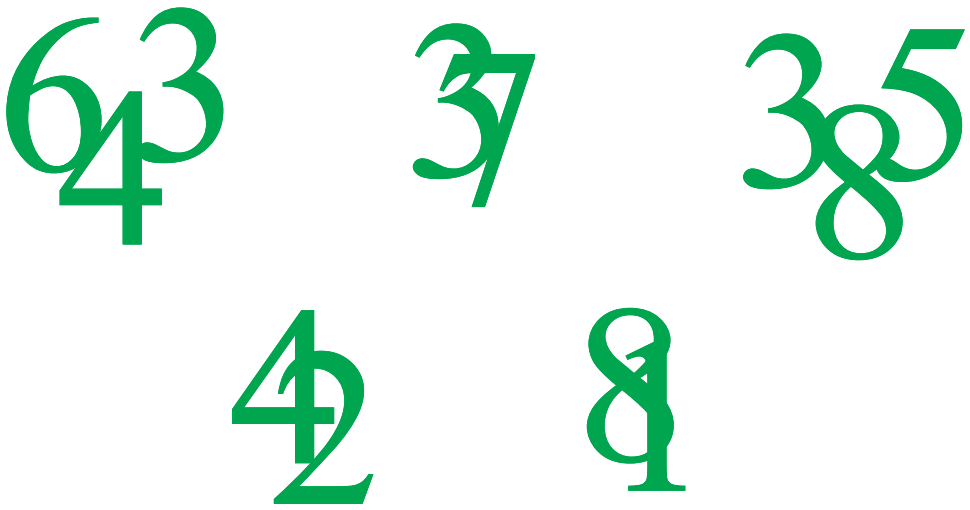

2. Вычисли.

9 – 1	4 + 4	6 + 3
2 + 7	5 + 4	3 + 3
8 – 3	7 – 2	2 – 1

3. Назови линии.

Правообладатель Народная асвета

1. Сосчитай и сравни.



2. Назови знакомые фигуры.

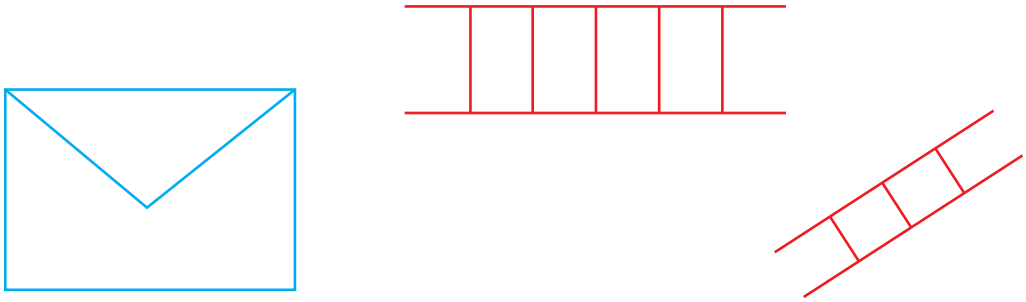

Правообладатель Народная асвета

3. Составь и реши задачи.

○○○○○∅

6 – □ = □



○○○∅∅∅

6 – □ = □

4. Выполни по образцу.

1	+	2	=	2	+	1
2	+	1	=			
1	+	2	=			

3	+	1	=	1	+	3
1	+	3	=			
3	+	1	=			

5. Составь примеры по образцу и реши их.

3 + 2 = 2 + 3

2 + 3 = □ + □

4 + 2 =

2 + 4 =

3 + 1 =

1 + 3 =

6. Назови геометрические фигуры.

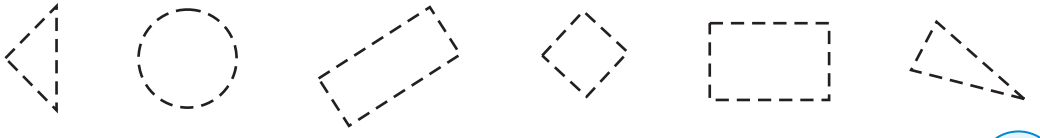

Правообладатель Народная асвета

1.

2.

3. Составь примеры.



Правообладатель Народная асвета

ЧЕТВЁРТАЯ ЧЕТВЕРТЬ

Урок 1

1. Составь задачу.

2. Реши примеры.

5 + 3	4 – 3	5 + 2
1 + 4	6 – 3	6 + 2
1 + 6	1 – 1	1 + 5
2 + 4	5 – 5	1 + 7
5 + 1	4 – 1	7 + 1
6 + 1	3 – 1	2 – 1

3. Сосчитай. Сравни.

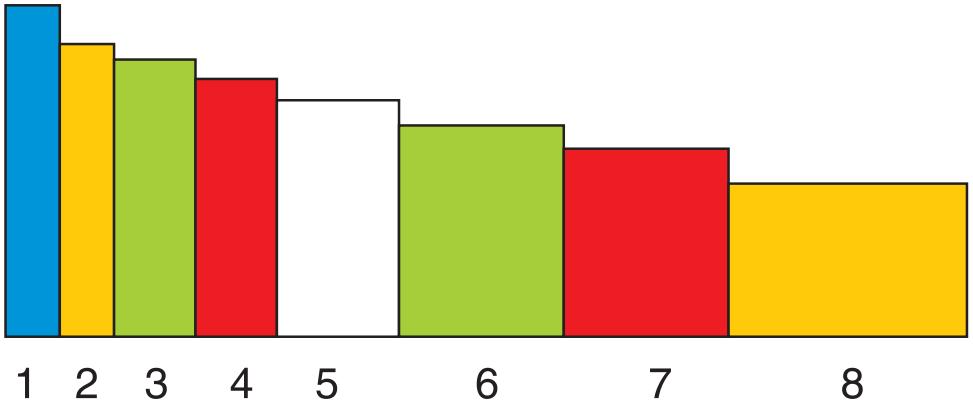

Правообладатель Народная асвета

1. Составь и реши задачу.

2. Составь примеры.

	+		+		=	

	–		–		=	

3. Вычисли.

7 + 1	6 + 2	4 + 3	8 – 1
8 – 2	8 – 6	3 + 3	5 + 3

Правообладатель Народная асвета

1. Сосчитай и сравни.

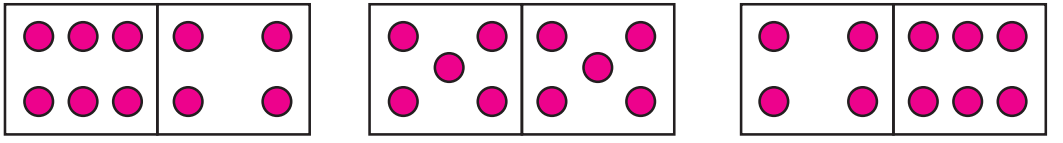

2. Составь и реши задачу.

8 + □ = 10

3. Реши примеры.

9 + 1	8 + 2	7 + 3	6 + 4
10 – 1	10 – 2	10 – 3	10 – 4

4. Составь задачи.

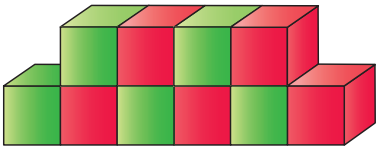

□ + □ = 10

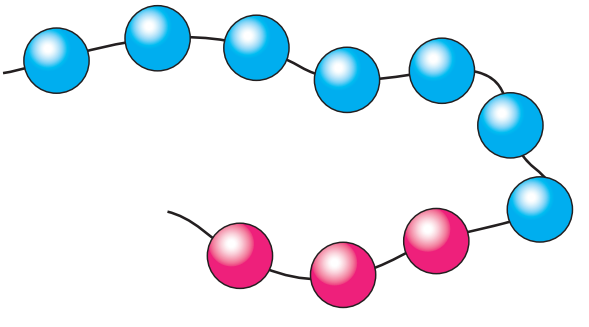

□ + □ = 10

Правообладатель Народная асвета

1. Реши задачу.

В поле работало 4 трактора. Приехало ещё 2. Сколько всего тракторов работает в поле?

2. Реши примеры.

1 + 1 + 1 + 1 + 1 + 1   3 + 1 + 1 + 1

2 + 1 + 1 + 1 + 1   2 + 1 + 1 + 1 + 1

---

5 + □ = 6   □ + 4 = 10

3 + □ = 6   1 + □ = 6

□ + 2 = 6   2 + □ = 6

3. Какие фигуры спрятались?

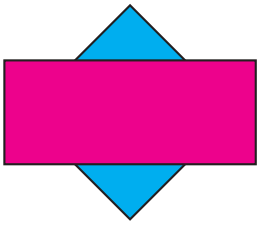



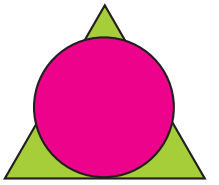

Правообладатель Народная асвета

1. Составь задачи.

2. Реши примеры.

2 + 2	3 + 3	9 – 3
2 + 2 + 2	3 + 3 + 3	9 – 3 – 3
2 + 2 + 2 + 2	6 + 3	9 – 3 – 3 – 3

3. Выложи по образцу.

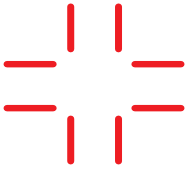

Правообладатель Народная асвета

1. Составь примеры. Запиши их в тетрадь.

1 + 2 =

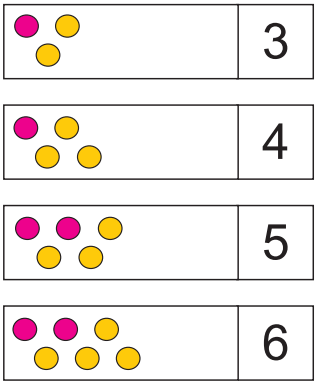

7 – 2 =

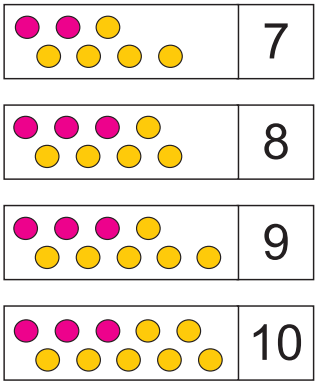

2. Сосчитай по образцу.

1 – 1 = 0

2 – 2	1 + 1	2 – 1	7 – 1
3 – 3	2 + 1	3 – 1	8 – 1
1 – 1	3 + 1	4 – 1	9 – 1

3. Составь задачу.



4. Выложи по образцу.



Правообладатель Народная асвета

1. Вычисли.

4 + 1	6 + 1	3 + 1
4 – 1	6 – 1	3 – 1
2 + 1	8 + 1	1 + 1
2 – 1	8 – 1	1 – 1

2. Сосчитай и сравни.

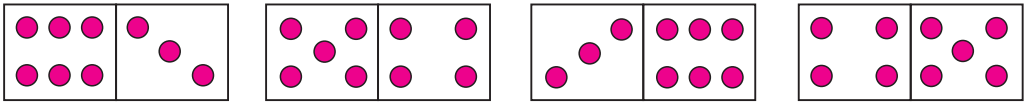

3. Реши примеры.

3 + 6	1 + 8	3 + 5
2 + 4	5 + 4	2 + 7
8 – 1	8 – 3	8 – 5
8 – 2	8 – 4	9 – 6

4. Составь задачу.

Правообладатель Народная асвета

1. Составь и реши задачу.

2. Вычисли.

8 + 1	5 + 4	6 + 3
1 + 8	4 + 5	3 + 6
6 + 3	5 + 4	7 + 2
9 – 3	9 – 4	9 – 2

3. Дополни до 9.

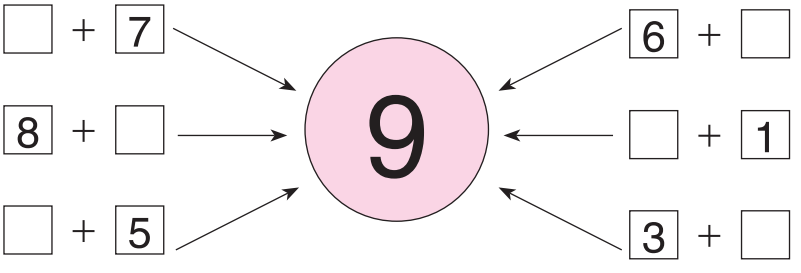

4. Выложи по образцу.

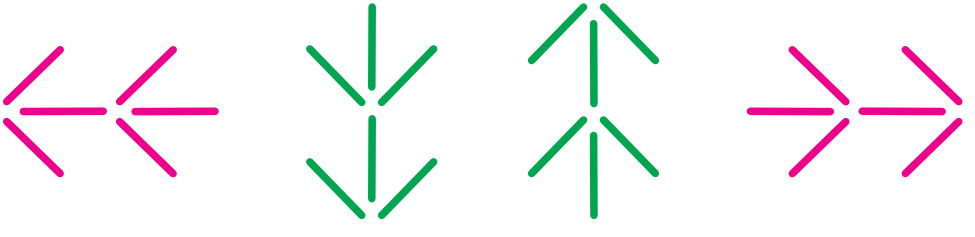

Правообладатель Народная асвета

1. Реши примеры.

9 + 1	10 – 1	6 + 1	7 – 1
8 + 1	9 – 1	5 + 1	6 – 1
7 + 1	8 – 1	4 + 1	5 – 1

2. Составь и реши примеры.

6 + 4 =

10 = 6 + □



6 + 2 + 2 = □

10 = 6 + □ + □

3. Посчитай.



Правообладатель Народная асвета

1. Сосчитай и сравни.

2. Реши примеры.

5 + 2 + 2	9 – 3 – 3
4 + 1 + 1 + 1	8 – 2 – 2

8 + □ = 9	9 – □ = 6	4 + □ = 9
□ + 6 = 9	9 – □ = 8	□ + 2 = 9
1 + □ = 2	9 – □ = 5	9 – □ = 3

4 + 1	7 + 1	9 – 1
4 + 2	7 – 1	1 + 8
5 – 1	8 + 1	7 + 2

3. Сосчитай и сравни.



Правообладатель Народная асвета

1. Вычисли.

5 + 1	4 + 2
6 – 6	6 – 5
3 + 3	6 – 6

2. Составь и реши примеры.

□ + □ = 6

5 + □ = □

1 + □ = □

□ + □ = 6

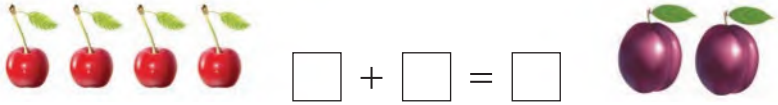

□ + □ = □

Правообладатель Народная асвета

1. Посчитай.

1	2	3	4	5	6	**7**

2. Составь и реши задачи.

3. Вычисли.

2 – 1	1 + 3	1 + 2	4 – 2
3 – 1	6 + 1	5 + 2	3 – 2

Правообладатель Народная асвета

4. Назови посуду и сосчитай предметы.

5. Сосчитай и сравни.

4

3

6. Назови соседние числа.

3 ☐	4 ☐	5 ☐ ☐ ☐
6 ☐	1 ☐	2 ☐ ☐ ☐
6 ☐ ☐	4 ☐ ☐	1 ☐ ☐ ☐

☐ 4	☐ 7	☐ 9
☐ ☐ 5	☐ ☐ 8	☐ ☐ 6

7. Сравни.

3 ... 5	9 ... 3	6 ... 8	8 ... 8
4 ... 8	6 ... 4	6 ... 5	9 ... 8

Правообладатель Народная асвета

1. Составь и реши задачу.

2. Реши примеры. Назови время на часах.

8 + 1 – 2
9 + 1 – 3
6 + 3 – 2

8 + 1 – 1
8 + 2 – 2
7 – 1 + 2

8 + 2 – 1
9 – 2 + 2

3. Выложи по образцу.

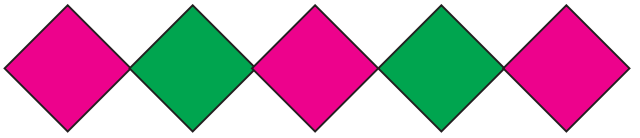

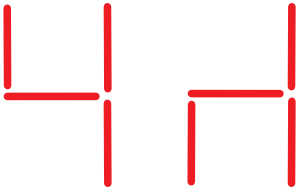

Правообладатель Народная асвета

1. Назови пропущенные номера палаток.

2. Составь и реши задачу.

3. Реши примеры.

1 + 5	2 + 5	3 + 5	6 – 5
7 – 5	8 – 5	4 + 1	5 – 2

4. Реши задачу.

По болоту ходили 9 аистов. 3 аиста улетели.

Поставь вопрос к условию задачи и реши её.



Правообладатель Народная асвета

1. Запиши в тетрадь примеры. Вычисли.

5 + 1	5 + 2	5 + 3
6 – 1	7 – 2	8 – 3
5 + 5	10 – 5	7 – 4

1 + 4	2 + 4	6 + 1 + 1 + 1 + 1
5 – 4	6 – 4	6 – 2 – 2
8 – 4	9 – 4	5 + 2 + 2

2. Назови номера самолётов, которые видны.



3. Сосчитай круги.



Правообладатель Народная асвета

4. Сосчитай.

$4 - 4 = 0$

$1 + 4$	$5 - 4$
$2 + 4$	$6 - 4$
$3 + 4$	$7 - 4$
$4 + 4$	$8 - 4$
$5 + 4$	$9 - 4$
$6 + 4$	$10 - 4$

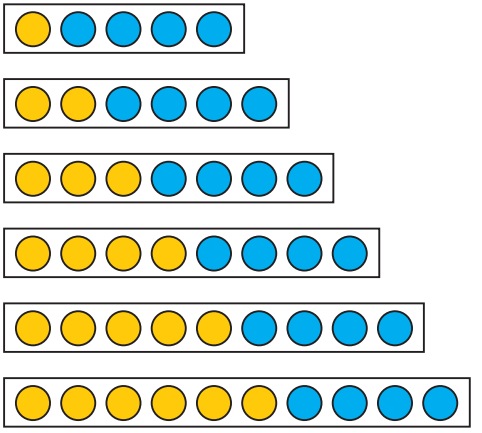

5. Какие цифры спрятались?

$10 = 6 + \square$	$10 = \square + 4$	$10 = 7 + \square$
$10 = 9 + \square$	$10 = \square + 6$	$10 = 5 + \square$
$10 = \square + 5$	$10 = 8 + \square$	$10 = \square + 7$
$10 = \square + 8$	$10 = 1 + \square$	$10 = \square + 9$

6. Сколько треугольников? Сколько кругов? Сколько квадратов?



Правообладатель Народная асвета

1. Реши примеры.

1 + 3	4 – 3	5 + 3	7 + 3
2 + 3	6 – 3	8 – 3	5 – 3
4 + 3	7 – 3	9 – 3	6 + 3

2. Реши задачи.

Было 7 учебников. Ученикам раздали 5 учебников. Сколько учебников осталось?

В саду висит 4 скворечника. Дети принесли ещё 3. Сколько скворечников стало в саду?

3. Сколько лошадей? Какая лошадь бежит первой? Какая лошадь бежит последней?



Правообладатель Народная асвета

1. Назови номера лодок. Какая первая? Какая последняя?

2. Реши примеры.

1 + 6	2 + 6	4 + 6
6 + 1	6 + 2	6 + 4
7 – 1	8 – 2	10 – 4
7 – 6	8 – 6	10 – 6

3. Почему стоит знак «равно»?

1 + 9 = 9 + 1 7 + 3 = 3 + 7 8 + 2 = 2 + 8

4. Сравни. Какая полоска шире? Какая полоска у́же? Какие полоски по длине?



Правообладатель Народная асвета

1. Запомни!

$5 - 5 = 0$

$6 - 6 = 0$

$1 + 5 = 6$	$6 - 5 = 1$	$1 + 6 = 7$	$7 - 6 = 1$
$2 + 5 = 7$	$7 - 5 = 2$	$2 + 6 = 8$	$8 - 6 = 2$
$3 + 5 = 8$	$8 - 5 = 3$	$3 + 6 = 9$	$9 - 6 = 3$
$4 + 5 = 9$	$9 - 5 = 4$	$4 + 6 = 10$	$10 - 6 = 4$
$5 + 5 = 10$	$10 - 5 = 5$		

2. Составь задачу.

3. Поставь точки в тетради. Соедини их, как на рисунке.

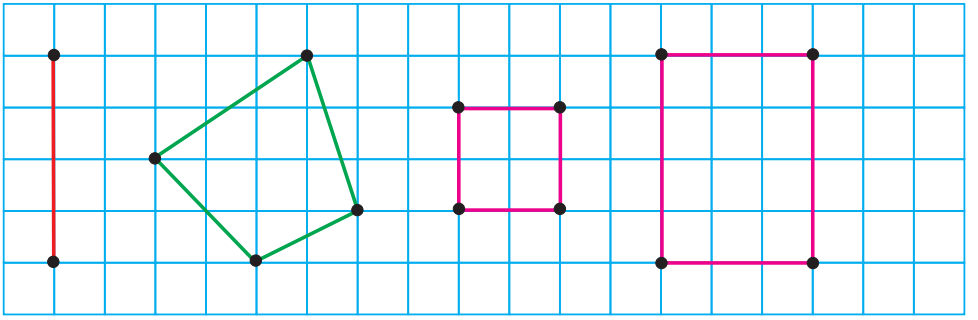

Правообладатель Народная асвета

1. Запомни!

7 – 7 = 0 8 – 8 = 0	9 – 9 = 0 10 – 10 = 0

2. Вычисли.

1 + 7	8 – 7	3 + 7
2 + 7	9 – 7	10 – 7
1 + 8	9 – 8	1 + 9
2 + 8	10 – 8	10 – 9

3. Реши задачи.

Возле школы росли 4 клёна и 5 берёз. Сколько деревьев росло возле школы?

Нарисуй в тетради столько кругов, сколько деревьев росло возле школы.

Купили 5 бананов. 3 банана съели. Сколько бананов осталось?

4.

6	6	6	6	6	6	6	6	6	
9	9	9	9	9	9	9	9	9	

Правообладатель Народная асвета

1. Составь примеры.

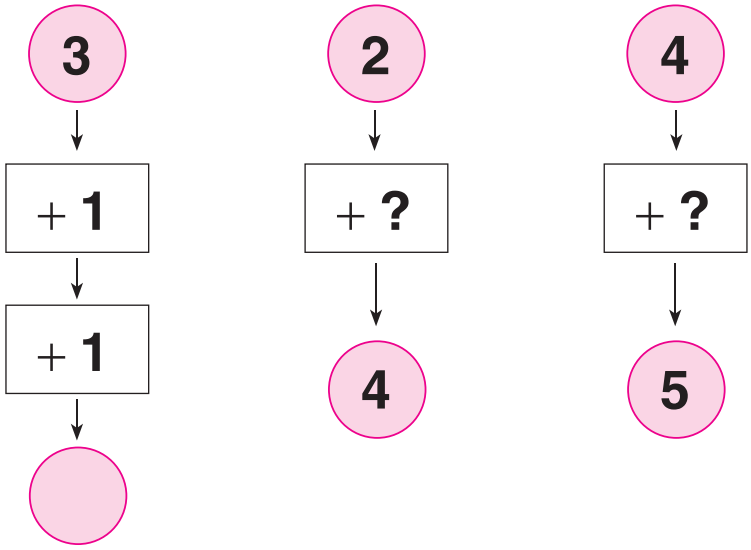

2. Сосчитай по два. Сосчитай по три.

3. Составь задачу.

Правообладатель Народная асвета

4. Составь задачу.

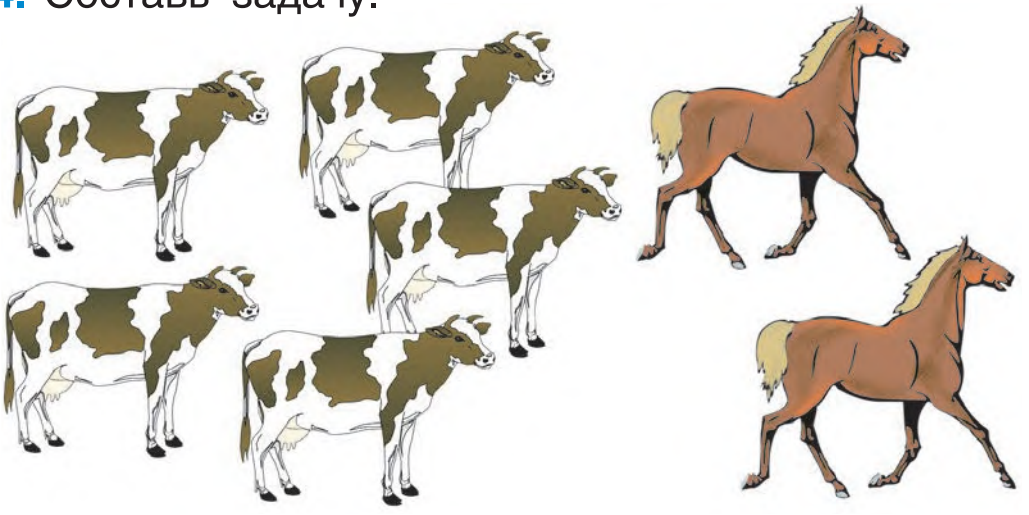

5. Сосчитай.

$2 - 2 = 0$

2 – 2	1 + 2	3 – 2	5 + 2
5 – 5	2 + 2	4 – 2	7 + 2
6 – 6	4 + 2	6 – 2	8 + 2

6. Составь примеры.

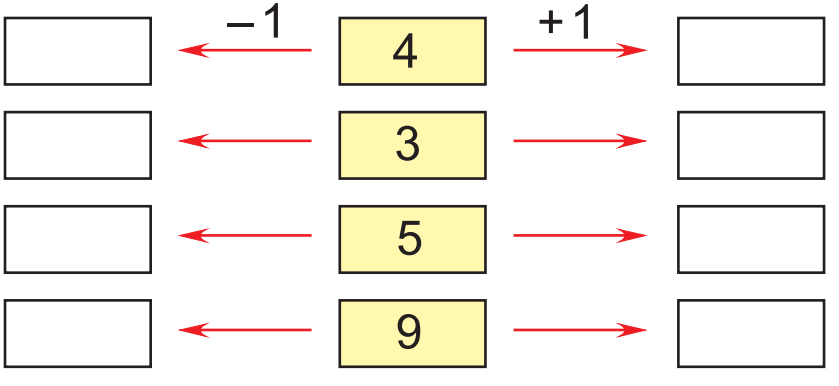

Правообладатель Народная асвета

1. Составь и реши задачу.

2. Вычисли.

7 – 3 + 3	7 – 2 + 1	7 – 2 + 1
7 – 3 + 2	7 – 2 + 2	7 – 1 + 1

3. Назови фигуры. Покажи одинаковые.

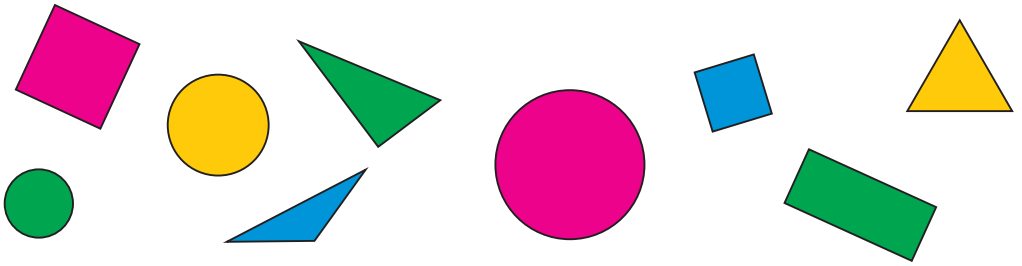

4. Сосчитай и сравни.

Правообладатель Народная асвета

1. Реши задачи.

В автобусе ехало 10 пассажиров. На остановке вышли 3 пассажира и 1 пассажир вошёл. Сколько пассажиров стало в автобусе?

Игнату 7 лет. Сестра старше брата на 3 года. Сколько лет сестре?

2. Составь задачу.

3. Вычисли.

4 + 2 + 2	7 – 1 – 1	10 – 1
5 + 1 + 1	7 – 2 – 1	10 – 9

4. Выложи по образцу.

Правообладатель Народная асвета

1. Составь и реши задачу.

2. Сравни. Чего больше? Чего меньше?



3. Реши примеры.

□ + 3 = 8	3 – □ = 0	3 + □ = 5
□ + 3 = 9	6 – □ = 3	3 + □ = 6

5 = 4 + □	6 = 4 + □	9 – 1 – 1
5 = 3 + □	6 = 3 + □	9 – 2 – 2

6 + 1	8 – 1	5 – 1
6 + 2	8 – 2	2 + 5

Правообладатель Народная асвета

1. Реши задачи.



Привезли 9 ящиков с яблоками, 6 ящиков выгрузили. Сколько ящиков осталось?

Клава и Вера вымыли по 5 стаканов. Сколько всего стаканов вымыли девочки?

2. Вычисли.

5 + 1 + 4	6 + 3 + 1	7 + 1 + 1
5 + 4 + 1	4 + 2 + 2	7 + 1 + 2
6 + 1 + 2	2 + 2 + 4	8 + 1 + 1

1 + 1	2 + 2	4 – 1
6 – 1	5 – 2	3 + 2

3. Выложи по образцу.

Правообладатель Народная асвета

1. Рассмотри рисунок. На какой машине брёвен больше? На какой меньше?



2. Реши задачи.

Антон и Петя поймали по 5 рыбок. Сколько всего рыбок поймали дети?

Возле дома ходят 5 кур и 1 утка. Сколько всего птиц возле дома?

Сколько маляров работает в доме? Сколько красит забор? Где больше? Где меньше?

Правообладатель Народная асвета

1. Сосчитай.

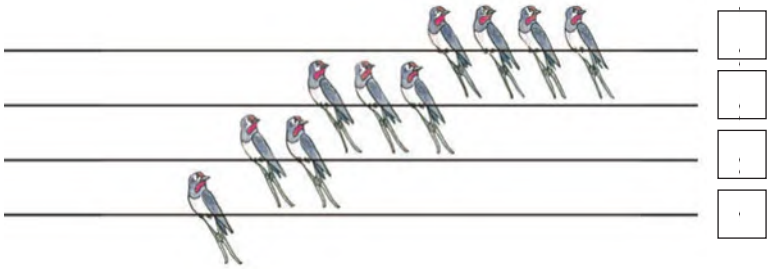

2. Вычисли.

5 + 1 + 1	9 – 2 – 1	8 – 3 – 2
1 + 1 + 1	3 + 3 + 3	2 + 2 + 2 + 2

3. Рассмотри рисунки. Прочитай примеры.

[2] + [0] = [2]

[2] – [2] = [0]

4. Выполни сложение.

1 + 0 = 1	2 + 0	5 + 0	9 + 0
2 + 0 = 2	4 + 0	7 + 0	10 + 0

5. Выполни вычитание.

1 – 0 = 1	2 – 0	5 – 0	8 – 0
2 – 0 = 2	3 – 0	6 – 0	10 – 0

Правообладатель Народная асвета

1. Составь задачи.



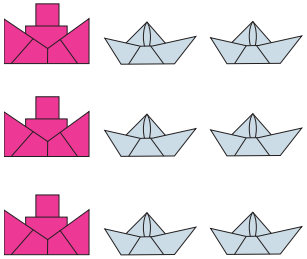





2. Реши задачи.

На столе лежало 8 яблок. 2 яблока съели. Сколько яблок осталось?

В бочке было 7 вёдер воды. Долили ещё 3 ведра. Сколько вёдер воды стало в бочке?

3. Вычисли.

1 + 5	2 + 5	3 + 5
6 – 5	7 – 5	8 – 5
4 + 1	5 – 2	1 + 3

Правообладатель Народная асвета

1. Составь примеры по рисунку и реши их.

□ + 4 = 7

3 + □ = 7

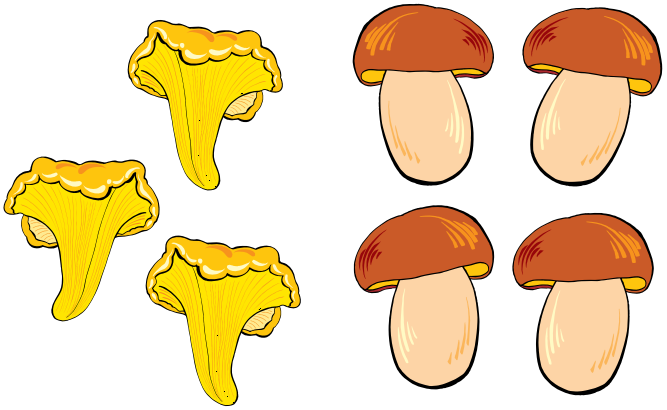

2. Вычисли.

3 + 1 + 1	4 + 2 + 1	5 + 1 + 1 + 1
3 + 2	4 + 3	5 + 2 + 1
7 + 3 – 2	7 – 5 + 1	9 – 5 – 1
6 – 1 – 1	8 – 4 + 2	9 – 5 – 2
3 + 1	4 – 1 – 1	1 + 4
5 – 1	1 + 1 + 1	2 – 1

3. Начерти линию по образцу.

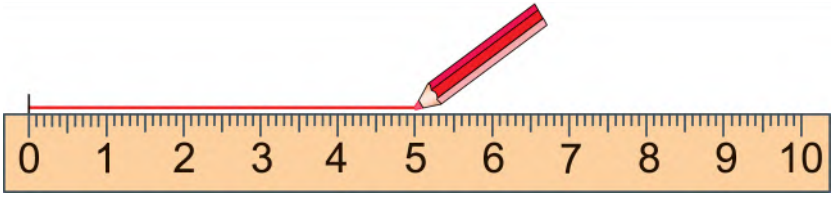

Правообладатель Народная асвета

1. Назови по порядку.

1	первый
2	второй
3	третий
4	четвёртый
5	пятый
6	шестой
7	седьмой
8	восьмой
9	девятый
10	десятый



2. Назови пропущенные числа.

1 ☐ 3 4 ☐ ☐ 7 ☐ 9 10

1 2 3 ☐ ☐ 6 7 8 ☐ 10

10 9 ☐ 7 6 ☐ 4 ☐ 2 1

3. Посчитай двойками.



4. Начерти линию по образцу.

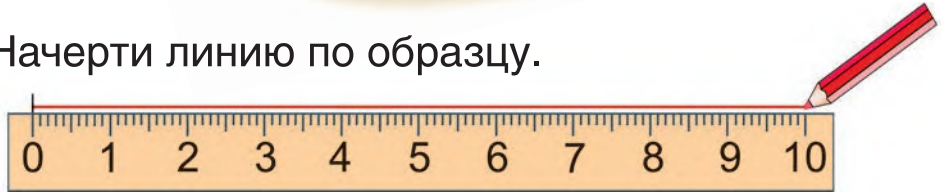

Правообладатель Народная асвета

1. Читай. Сосчитай.

понедельник	1
вторник	2
среда	3
четверг	4
пятница	5
суббота	6
воскресенье	7

2. Сосчитай. Сравни.



3. Назови три числа справа.

2 ☐ ☐ ☐ 6 ☐ ☐ ☐ 1 ☐ ☐ ☐

Назови три числа слева.

☐ ☐ ☐ 7 ☐ ☐ ☐ 10 ☐ ☐ ☐ 5

4. Сколько кругов? Сколько квадратов?



Правообладатель Народная асвета

1. Сосчитай. Где один десяток? Где 10?



2. Назови пропущенные числа.

$2 + \square = 2 + 3$ $\quad$ $6 + \square = 6 + 1$

$4 + \square = 5 + 4$ $\quad$ $7 + \square = 2 + 7$

3. Покажи углы геометрических фигур.

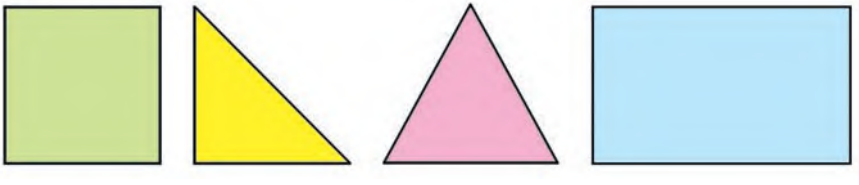

Правообладатель Народная асвета

1. Реши задачи.

В саду росли 6 кустов малины и 4 куста смородины. Сколько всего кустов росло в саду?

У Алеси было 9 яблок. 3 яблока она дала Марине. Сколько яблок осталось у Алеси?

2. Реши примеры.

7 + 3 – 2 10 – 6 + 3 8 + 2 – 10

3. Составь и реши задачи.

Правообладатель Народная асвета

4. Рассмотри рисунки.
Расскажи о распорядке дня.



Правообладатель Народная асвета

Учебное издание

Гриханов Владимир Платонович
Лисовская Татьяна Викторовна

МАТЕМАТИКА

Учебное пособие для 2 класса
первого отделения специальных школ,
специальных школ-интернатов с русским языком обучения и воспитания

Для работы в классе

4-е издание, исправленное

Зав. редакцией *Г. А. Бабаева.* Редакторы *Е. В. Литвинович, Л. И. Симонович.*
Художники *Л. Н. Корчажинская, А. П. Маковцов, Л. В. Посчастьев, В. А. Протасеня, А. А. Семёнова, В. А. Якубовская.*
Художественные редакторы *Е. А. Ждановская, О. Н. Карпович, Е. А. Проволович, Е. П. Протасеня, А. А. Шевченко.*
Техническое редактирование и компьютерная вёрстка *Е. Ю. Агафоновой.*
Корректоры *О. С. Козицкая, А. В. Алешко.*

Подписано в печать 10.07.2023. Формат $70 \times 90^{1}/_{16}$. Бумага офсетная.
Печать офсетная. Усл. печ. л. 12,29 + 0,29 форз. Уч.-изд. л. 9,3 + 0,4 форз.
Тираж 970 экз. Заказ .

Издательское республиканское унитарное предприятие «Народная асвета».
Свидетельство о государственной регистрации издателя, изготовителя,
распространителя печатных изданий № 1/2 от 08.07.2013.
Пр. Победителей, 11, 220004, Минск.

Открытое акционерное общество «Полиграфкомбинат им. Я. Коласа».
Свидетельство о государственной регистрации издателя, изготовителя,
распространителя печатных изданий № 2/3 от 10.09.2018.
Ул. Корженевского, 20, 220024, Минск, Республика Беларусь.

Правообладатель Народная асвета

(Название учреждения образования)

Учебный год	Имя и фамилия учащегося	Состояние учебного пособия при получении	Оценка учащемуся за пользование учебным пособием
20 /			
20 /			
20 /			
20 /			
20 /			
20 /			
20 /			

Правообладатель Народная асвета